سلسلة تمارين المتتاليات العددية الواردة في البكالوريا

من 2008 إلى 2018 [شعبة علوم تجريبية]

السنة الدراسية : 2018/ 2019 **جمع و إعداد الأستاذ :** بخاخشة خالد

التمرين الأول[باك 2008] [م1] (4ن)

1) نعتبر الدالة f المعرّفة على المجال $I=[1;2]$ بالعبارة : $f(x)=\dfrac{x+2}{-x+4}$

أ- بيّن أن الدالة f متزايدة على I.

ب- بيّن أنه من أجل كل عدد حقيقي x من المجال I ، $f(x)$ ينتمي إلى I .

2) (u_n) هي المتتالية العددية المعرّفة على $\mathbb{N}$ كما يأتي : $u_0=\dfrac{3}{2}$ و $u_{n+1}=f(u_n)$

أ- برهن بالتراجع أنه من أجل كل عدد طبيعي n ، u_n ينتمي إلى I.

ب- أدرس اتجاه تغير المتتالية (u_n) ثم استنتج أنها متقاربة .

3) أ- برهن بالتراجع أنه من أجل كل عدد طبيعي n : $u_n=1+\dfrac{1}{\left(\dfrac{3}{2}\right)^n+1}$.

ب- عيّن النهاية : $\lim\limits_{n\to+\infty}u_n$.

التمرين الثاني[باك 2008] [م2] (5ن)

(u_n) متتالية عددية معرّفة كما يلي : $u_0=\dfrac{5}{2}$ و من أجل كل عدد طبيعي n : $u_{n+1}=\dfrac{2}{3}u_n+2$

1) أ- أرسم في معلم متعامد و متجانس $(O;\vec{i},\vec{j})$ ، المستقيم (Δ) الذي معادلته $y=x$ و المنحني (d) الممثل للدالة f المعرّفة على $\mathbb{R}$ بـ : $f(x)=\dfrac{2}{3}x+2$.

ب- باستعمال الرسم السابق ، مثل على حامل محور الفواصل و بدون حساب الحدود : u_0,u_1,u_2,u_3 و u_4 .

جـ- ضع تخمينا حول اتجاه تغير المتتالية (u_n) و تقاربها .

2) أ- برهن بالتراجع أنه من أجل كل عدد طبيعي n : $u_n\le 6$

ب- تحقق أن (u_n) متزايدة .

جـ- هل (u_n) متقاربة ؟ برر إجابتك.

3) نضع من أجل كل عدد طبيعي n : $v_n=u_n-6$

أ- أثبت أن (v_n) متتالية هندسية يطلب تعيين أساسها و حدها الأول .

ب- أكتب عبارة u_n بدلالة n ثم استنتج $\lim\limits_{n\to+\infty}u_n$.

التمرين الثالث[باك 2009] [م1] (3.5ن)

(u_n) متتالية معرّفة على $\mathbb{N}$ كما يلي : $u_{n+2}=\dfrac{4}{3}u_{n+1}-\dfrac{1}{3}u_n$ و $u_1=2$ و $u_0=1$.

المتتالية (v_n) معرّفة على $\mathbb{N}$ كما يلي: $v_n=u_{n+1}-u_n$.

1) أحسب v_0 و v_1 .

2) برهن أنّ (v_n) متتالية هندسية يطلب تعيين أساسها .

3) أ- أحسب بدلالة n المجموع S_n : $S_n=v_1+v_2+...+v_{n-1}$.

ب- برهن أنه من أجل كل عدد طبيعي n : $u_n=\dfrac{3}{2}\left(1-\left(\dfrac{1}{3}\right)^n\right)+1$

جـ- بيّن أنّ (u_n) متقاربة .

التمرين الرابع [باك 2009] [م2] (5ن)

(u_n) متتالية هندسية متزايدة تماما حدها الأول u_1 و أساسها q حيث : $\begin{cases} u_1 + 2u_2 + u_3 = 32 \\ u_1 \times u_2 \times u_3 = 216 \end{cases}$

1) أ- أحسب u_2 و الأساس q لهذه المتتالية و استنتج الحد الأول u_1

ب- أكتب عبارة الحد العام u_n بدلالة n .

جـ- أحسب S_n حيث : $S_n = u_1 + u_2 + ... + u_n$ بدلالة n ثم عين العدد الطبيعي n بحيث يكون $S_n = 728$.

2) (v_n) متتالية معرفة من أجل كل عدد طبيعي غير معدوم n كما يلي : $v_1 = 2$ و $v_{n+1} = \frac{3}{2}v_n + u_n$

أ- أحسب v_2 ، v_3 .

ب- نضع من أجل كل عدد طبيعي n غير معدوم: $w_n = \frac{v_n}{u_n} - \frac{2}{3}$ ، بيّن أن (w_n) متتالية هندسية أساسها $\frac{1}{2}$.

جـ- أكتب w_n بدلالة n ثم إستنتج v_n بدلالة n .

التمرين الخامس [باك 2010] [م2] (5ن)

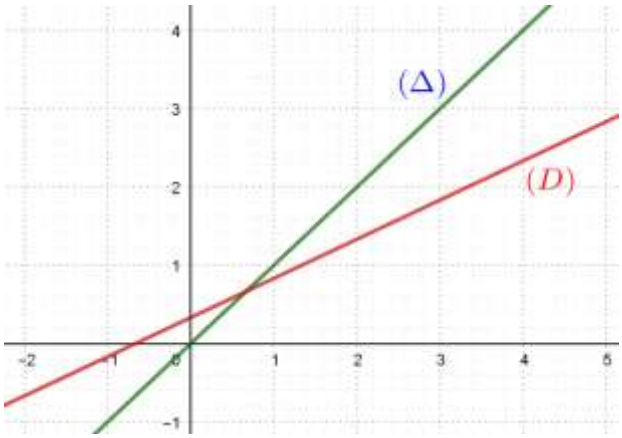

في المستوي المنسوب إلى معلم متعامد و متجانس مثلنا المستقيمين

(Δ) و (D) معادلتيهما على الترتيب : $y = x$ و $y = \frac{1}{2}x + \frac{1}{3}$

1) لتكن المتتالية (u_n) المعرّفة على مجموعة الأعداد الطبيعية $\mathbb{N}$ بـ :

$u_0 = 6$ و من أجل كل عدد طبيعي n : $u_{n+1} = \frac{1}{2}u_n + \frac{1}{3}$.

أ- أنقل الشكل ثمّ مثل على محور الفواصل الحدود التالية u_0, u_1, u_2, u_3 و u_4 دون حسابها مبرزا خطوط الرسم

ب- عيّن إحداثيي نقطة تقاطع المستقيمين (Δ) و (D).

جـ- أعط تخمينا حول إتجاه تغير المتتالية (u_n).

2) أ- باستعمال الاستدلال بالتراجع ، أثبت أنه من أجل كل عدد طبيعي n ، $u_n \geq \frac{2}{3}$.

ب- إستنتج إتجاه تغير المتتالية (u_n).

3) نعتبر المتتالية (v_n) المعرّفة من أجل كل عدد طبيعي n بالعلاقة : $v_n = u_n - \frac{2}{3}$.

أ- بيّن أنّ المتتالية (v_n) هندسية يطلب تحديد أساسها و حدّها الأول .

ب- أكتب بدلالة n عبارة الحد العام v_n ، و استنتج عبارة u_n بدلالة n .

جـ- أحسب بدلالة n المجموع S_n حيث : $S_n = v_0 + v_1 + ... + v_n$

إستنتج المجموع S'_n حيث : $S'_n = u_0 + u_1 + ... + u_n$.

التمرين السادس [باك 2011] [م1] (3ن)

(u_n) المتتالية العددية المعرّفة بـ : $u_0 = -1$ ومن أجل كل عدد طبيعي n ، $u_{n+1} = 3u_n + 1$.

و (v_n) المتتالية العددية المعرّفة من أجل كل عدد طبيعي n بـ : $v_n = u_n + \frac{1}{2}$.

في كل حالة من الحالات الثلاث الآتية اقترحت ثلاث إجابات، إجابة واحدة فقط منها صحيحة، حدّدها مع التعليل.

1. المتتالية (v_n) :

أ- حسابية. ب- هندسية. جـ- لا حسابية ولا هندسية.

2. نهاية المتتالية (u_n) هي :

أ- $+\infty$. ب- $-\frac{1}{2}$. جـ- $-\infty$.

3. نضع من أجل كل عدد طبيعي n ، $S_n = -\frac{1}{2}\left[1+e^{\ln 3}+e^{2\ln 3}+e^{3\ln 3}+...+e^{n\ln 3}\right]$.

أ- $S_n = \frac{3^{n+1}-1}{2}$ ب- $S_n = \frac{1-3^n}{4}$ جـ- $S_n = \frac{1-3^{n+1}}{4}$.

التمرين السابع[باك 2011][م2] (4ن)

α عدد حقيقي موجب تماما ويختلف عن 1.

(u_n) متتالية عددية معرّفة على $\mathbb{N}$ بـ: $u_0 = 6$ ومن أجل كل عدد طبيعي n ، $u_{n+1} = \alpha u_n + 1$.

(v_n) متتالية عددية معرّفة من أجل كل عدد طبيعي n بـ: $v_n = u_n + \frac{1}{\alpha - 1}$.

1) أ- بيّن أن (v_n) متتالية هندسية أساسها α .

ب- أكتب بدلالة n و α ، عبارة v_n ثم استنتج بدلالة n و α ، عبارة u_n.

جـ- عيّن قيم العدد الحقيقي α التي تكون من أجلها المتتالية (u_n) متقاربة.

2) نضع: $\alpha = \frac{3}{2}$.

- أحسب بدلالة n ، المجموعين S_n و T_n حيث: $S_n = v_0 + v_1 + ... + v_n$ و $T_n = u_0 + u_1 + ... + u_n$.

التمرين الثامن[باك 2012][م1] (5ن)

نعتبر المتتالية العددية (u_n) المعرفة بحدها الأول $u_0 = 1$ و من أجل كل عدد طبيعي n : $u_{n+1} = \sqrt{2u_n + 3}$

1) لتكن h الدالة المعرفة على المجال $\left[-\frac{3}{2};+\infty\right[$ كما يلي: $h(x) = \sqrt{2x+3}$ و (C) تمثيلها البياني

و (Δ) المستقيم ذو المعادلة: $y = x$ في المستوي المنسوب إلى معلم متعامد و متجانس (أنظر الشكل المقابل).

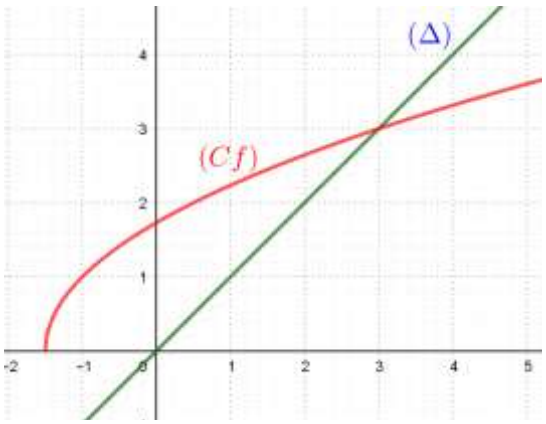

أ- أعد رسم الشكل المقابل على ورقة الإجابة ثم مثل على محور الفواصل الحدود التالية u_0, u_1, u_2 و u_3 (دون حسابها وموضحا خطوط الإنشاء)

ب- ضع تخمينا حول إتجاه تغيّر (u_n) و تقاربها .

2) برهن بالتراجع أنه من أجل كل عدد طبيعي n : $0 < u_n < 3$

3) أ- أدرس اتجاه تغير المتتالية (u_n).

ب- إستنتج أن المتتالية (u_n) متقاربة ، ثم أحسب $\lim_{n\to+\infty} u_n$.

التمرين التاسع[باك 2012][م2] (4.5ن)

(u_n) المتتالية العددية المعرفة بحدها الأول $u_0 = \frac{13}{4}$ و من أجل كل عدد طبيعي n : $u_{n+1} = 3 + \sqrt{u_n - 3}$

1) برهن بالتراجع أنه من أجل كل عدد طبيعي n : $3 < u_n < 4$

2) بيّن أنه من أجل كل عدد طبيعي n : $u_{n+1} - u_n = \frac{-u_n^2 + 7u_n - 12}{\sqrt{u_n - 3} + u_n - 3}$. استنتج أن (u_n) متزايدة تماما.

3) برّر لماذا (u_n) متقاربة.

4) المتتالية (v_n) معرّفة على $\mathbb{N}$ بـ: $v_n = \ln(u_n - 3)$.

أ) برهن أن (v_n) متتالية هندسية أساسها $\frac{1}{2}$ ، ثم أحسب حدها الأول .

ب) أكتب كلا من v_n و u_n بدلالة n ، ثم أحسب $\lim_{n\to+\infty} u_n$.

جـ) نضع من أجل كل عدد طبيعي n : $P_n = (u_0 - 3)(u_1 - 3)(u_2 - 3)\times...\times(u_n - 3)$.

د) أكتب P_n بدلالة n ، ثم بيّن أن: $\lim_{n\to+\infty} P_n = \frac{1}{16}$.

التمرين العاشر [باك 2013] [م1] (4ن)

I) المتتالية (v_n) معرفة على $\mathbb{N}$ بـ : $v_n = \frac{5^{n+1}}{6^n}$.

1) بيّن أن (v_n) متتالية هندسية يطلب تعيين أساسها و حدّها الأول .

2) أحسب $\lim\limits_{n\to\infty} v_n$.

II) المتتالية (u_n) معرّفة بـ : $u_0 = 1$ ، و من أجل كل عدد طبيعي n : $u_{n+1} = \sqrt{5u_n + 6}$

1) برهن بالتراجع أنه ، من أجل كل عدد طبيعي n ، $1 \le u_n \le 6$

2) أدرس اتجاه تغير المتتالية (u_n).

3) أ ـ برهن أنه ، من أجل كل عدد طبيعي n : $6 - u_{n+1} = \frac{5}{6}(6 - u_n)$.

بـ ـ بيّن أنه ، من أجل كل عدد طبيعي n : $0 \le 6 - u_n \le v_n$. استنتج $\lim\limits_{n\to+\infty} u_n$.

التمرين الحادي عشر [باك 2013] [م2] (4ن)

في الشكل المقابل ، (C_f) هو التمثيل البياني للدالة f المعرفة على المجال $[0;1]$ بالعلاقة : $f(x) = \frac{2x}{x+1}$ ،

و (d) المستقيم ذو المعادلة : $y = x$

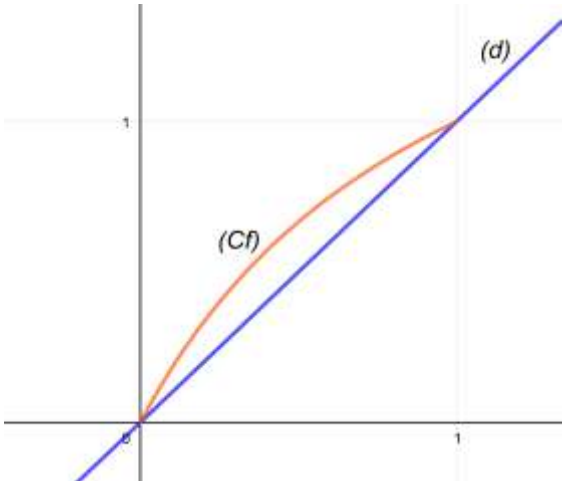

1) (u_n) المتتالية العددية المعرّفة على $\mathbb{N}$ بحدّها الأول ، $u_0 = \frac{1}{2}$

و من أجل كل عدد طبيعي n : $u_{n+1} = f(u_n)$

أ ـ أعد رسم هذا الشكل في ورقة الإجابة ، ثم مثل الحدود u_0, u_1, u_2

و u_3 على محور الفواصل دون حسابها، مبرزا خطوط التمثيل.

بـ ـ ضع تخمينا حول اتجاه تغير المتتالية (u_n) و تقاربها .

2) أ ـ أثبت أن الدالة f متزايدة تماما على المجال $[0;1]$

بـ ـ برهن بالتراجع أنه، من أجل كل عدد طبيعي n : $0 < u_n < 1$

جـ ـ أدرس اتجاه تغير المتتالية (u_n) .

3) (v_n) المتتالية العددية المعرفة على $\mathbb{N}$ كما يلي : $v_n = \frac{u_n - 1}{u_n}$.

أ ـ برهن (v_n) متتالية هندسية أساسها $\frac{1}{2}$ ، يطلب حساب حدّها الأول v_0.

بـ ـ أحسب نهاية (u_n) .

التمرين الثاني عشر [باك 2014] [م1] (4ن)

لتكن (u_n) المتتالية العددية المعرّفة كما يلي : $u_0 = 1$ ومن أجل كل عدد طبيعي n ، $u_{n+1} = \frac{2}{3}u_n - \frac{4}{3}$

و (v_n) المتتالية العددية المعرّفة كما يلي : من أجل كل عدد طبيعي n ، $v_n = u_n + 4$

1) بيّن أن (v_n) متتالية هندسية يطلب تعيين أساسها و حدّها الأول .

2) أكتب كلا من v_n و u_n بدلالة n .

3) أدرس اتجاه تغير المتتالية (u_n) على $\mathbb{N}$.

4) أحسب بدلالة n المجموع S_n حيث : $S_n = u_0 + u_1 + ... + u_n$

5) لتكن (w_n) المتتالية العددية المعرفة على $\mathbb{N}$ كما يلي : $w_n = 5\left(\frac{1}{v_n + 5} - 1\right)$.

أ ـ بيّن أن المتتالية (w_n) متزايدة تماما على $\mathbb{N}$.

بـ ـ أحسب : $\lim\limits_{n\to+\infty}(u_n - w_n)$.

التمرين الثالث عشر [باك 2014] [م2] (4ن)

I) نعتبر المتتالية العددية (u_n) المعرفة على مجموعة الأعداد الطبيعية $\mathbb{N}$ بحدها العام : $u_n = e^{\frac{1}{2}-n}$ (e هو أساس اللوغاريتم النيبيري) .

1) بيّن أن (u_n) متتالية هندسية يطلب تعيين أساسها و حدها الأول.

2) أحسب $\lim\limits_{n\to+\infty} u_n$ ، ماذا تستنتج ؟

3) أحسب بدلالة n المجموع S_n حيث : $S_n = u_0 + u_1 + ... + u_n$

II) نضع من أجل كل عدد طبيعي n ، $v_n = \ln(u_n)$ ($\ln$ يرمز إلى اللوغاريتم النيبيري) .

1) عبر عن v_n بدلالة n ، ثم استنتج نوع المتتالية (v_n) .

2) أ- أحسب بدلالة n العدد P_n حيث : $P_n = \ln(u_0 \times u_1 \times u_2 \times ... \times u_n)$

ب- عين مجموعة قيم العدد الطبيعي n بحيث : $P_n + 4n > 0$.

التمرين الرابع عشر [باك 2015] [م1] (4.5ن)

(u_n) المتتالية العددية المعرفة بـ : $u_0 = e^2 - 1$ و من أجل كل عدد طبيعي n : $u_{n+1} = (1+u_n)e^{-2} - 1$.

1) أحسب : u_1, u_2 و u_3 .

2) أثبت أنه من أجل كل عدد طبيعي n : $1+u_n > 0$.

3) بيّن أن المتتالية (u_n) متناقصة . هل هي متقاربة ؟ علل .

4) نضع من أجل كل عدد طبيعي n : $v_n = 3(1+u_n)$

أ- أثبت أن (v_n) متتالية هندسية يطلب تعيين أساسها و حدها الأول.

ب- أكتب v_n و u_n بدلالة n ، ثم أحسب $\lim\limits_{n\to+\infty} u_n$.

جـ- بين أنه من أجل كل n من $\mathbb{N}$: $\ln v_0 + \ln v_1 + \ln v_2 + ... + \ln v_n = (n+1)(-n+2+\ln 3)$

التمرين الخامس عشر [باك 2015] [م2] (4.5ن)

المستوي منسوب إلى معلم متعامد و متجانس $(O;\vec{i},\vec{j})$.

I) f الدالة المعرفة على المجال $[0;+\infty[$ بـ : $f(x) = \frac{4x+1}{x+1}$ و (C_f) تمثيلها البياني .

1) عيّن اتجاه تغير الدالة f على المجال $[0;+\infty[$.

2) أدرس وضعية (C_f) بالنسبة للمستقيم (D) ذي المعادلة : $y = x$.

3) مثل (C_f) و (D) على المجال $[0;6]$.

II) نعتبر المتتاليتين (u_n) و (v_n) المعرفتين على $\mathbb{N}$ كما يلي : $\begin{cases} u_0 = 2 \\ u_{n+1} = f(u_n) \end{cases}$ و $\begin{cases} v_0 = 5 \\ v_{n+1} = f(v_n) \end{cases}$

1) أ- أنشئ على حامل محور الفواصل الحدود u_0, u_1, u_2 و u_3 ، v_0, v_1, v_2 و v_3 دون حسابها.

ب- خمّن اتجاه تغير و تقارب كل من المتتاليتين (u_n) و (v_n) .

2) أ- أثبت أنه من أجل كل n من $\mathbb{N}$: $2 \le u_n < \alpha$ و $\alpha < v_n \le 5$ حيث : $\alpha = \frac{3+\sqrt{13}}{2}$

ب- استنتج اتجاه تغير كل من المتتاليتين (u_n) و (v_n) .

3) أ- أثبت أنه من أجل كل n من $\mathbb{N}$: $v_{n+1} - u_{n+1} \le \frac{1}{3}(v_n - u_n)$

ب- بيّن أنه من أجل كل n من $\mathbb{N}$: $0 < v_n - u_n \le \left(\frac{1}{3}\right)^{n-1}$

جـ- استنتج أن : $\lim\limits_{n\to+\infty}(v_n - u_n) = 0$ ، ثم حدّد نهاية كل من (u_n) و (v_n) .

التمرين السادس عشر [باك 2016] [م1] (5ن)

نعتبر الدالة f المعرفة على المجال $I=[0;4]$ بـ : $f(x)=\dfrac{13x}{9x+13}$.

1) أ- بيّن أن الدالة f متزايدة تماما على المجال I .

ب- بيّن أنه من أجل كل من المجال I ، $f(x)$ ينتمي الى المجال I .

2) لتكن المتتالية العددية (u_n) المعرفة على $\mathbb{N}$ بحدها الأول $u_0=4$ و من أجل كل عدد طبيعي n : $u_{n+1}=f(u_n)$

أ- برهن بالتراجع أنه من أجل كل عدد طبيعي n : $0\le u_n\le 4$

ب- أدرس إتجاه تغير المتتالية (u_n) ، ثم استنتج أنها متقاربة .

3) بيّن أنه من أجل كل عدد طبيعي n : $u_n\neq 0$

4) لتكن المتتالية (v_n) المعرفة على $\mathbb{N}$ كما يلي : $v_n=2+\dfrac{13}{u_n}$

أ- برهن أن المتتالية (v_n) حسابية يطلب تعيين أساسها و حدّها الأول v_0 .

ب- أكتب v_n بدلالة n .

جـ- إستنتج أن : $u_n=\dfrac{52}{36n+13}$ وذلك من أجل كل عدد طبيعي n ، ثم أحسب $\lim\limits_{n\to+\infty}u_n$.

التمرين السابع عشر [باك 2016] [م2] (4.5ن)

(u_n) متتالية عددية معرفة على $\mathbb{N}$ بحدها الأول $u_0=0$ و من أجل كل عدد طبيعي n : $u_{n+1}=\dfrac{2u_n+2}{u_n+3}$

و لتكن المتتالية (v_n) المعرفة من أجل كل عدد طبيعي n بـ : $v_n=\dfrac{u_n-1}{u_n+2}$

1) بيّن أن (v_n) متتالية هندسية يطلب تعيين أساسها و حدها الأول.

2) أ- عبّر بدلالة n عن الحد العام v_n .

ب- استنتج عبارة الحد u_n العام بدلالة n .

جـ- أحسب $\lim\limits_{n\to+\infty}u_n$.

3) أ- أحسب بدلالة n المجموع : $S_n=v_0+v_1+....+v_n$.

ب- تحقق أن : $\dfrac{1}{u_n+2}=\dfrac{1}{3}(1-v_n)$ وذلك من أجل كل عدد طبيعي n .

جـ- أحسب بدلالة n المجموع : $S'_n=\dfrac{1}{u_0+2}+\dfrac{1}{u_1+2}+....+\dfrac{1}{u_n+2}$.

التمرين الثامن عشر [باك 2017] [م1] (4ن)

نعتبر المتتاليتان (u_n) و (v_n) المعرّفتان على $\mathbb{N}$ كما يلي :

$$\begin{cases}u_0=1\\ u_{n+1}=\dfrac{3}{4}u_n+1\end{cases}\quad \text{و}\quad \begin{cases}v_0=6\\ v_{n+1}=\dfrac{3}{4}v_n+1\end{cases}$$

1) أحسب الحدّين u_1 و v_1 .

2) أ- أكتب $u_{n+2}-u_{n+1}$ بدلالة $u_{n+1}-u_n$..

ب- باستعمال البرهان بالتراجع بيّن أن المتتالية (u_n) متزايدة تماما و المتتالية (v_n) متناقصة تماما .

3) نعتبر المتتالية (v_n) المعرّفة على $\mathbb{N}$ كما يلي : $w_n=u_n-v_n$

برهن أن المتتالية (w_n) هندسية يطلب تعيين أساسها q و حدّها الأول w_0 ثم عبّر عن w_n بدلالة n .

4) بيّن أن المتتاليتين (u_n) و (v_n) متجاورتان .

التمرين التاسع عشر[باك 2017] [م2] (4ن)

نعتبر الدالة f المعرفة على المجال : $[0;+\infty[$ كما يلي : $f(x)=\frac{3x+1}{x+3}$ و (C) تمثيلها البياني في المستوي المنسوب إلى معلم متعامد متجانس $(O;\vec{i},\vec{j})$ و (Δ) المستقيم ذو المعادلة : $y=x$

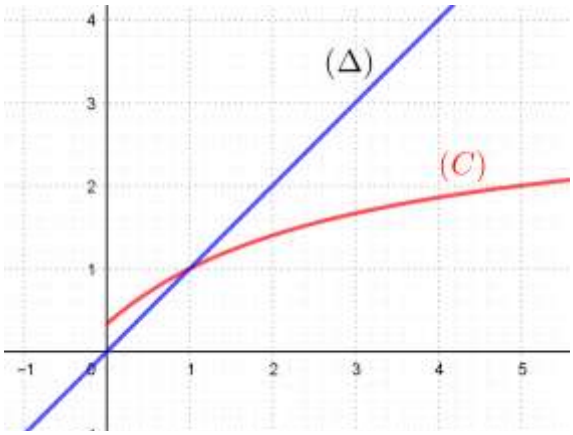

α عدد حقيقي موجب ، (u_n) المتتالية العددية المعرفة على بحدها الأول $u_0=\alpha$

و من أجل كل عدد طبيعي n : $u_{n+1}=f(u_n)$

1) عيّن قيم α حتى تكون (u_n) متتالية ثابتة.

نضع في كل مايلي : $\alpha=5$

2) أ- أنقل الشكل المقابل ثم مثل على محور الفواصل الحدود u_0,u_1,u_2 و u_3 دون حسابها.

ب- ضع تخمينا حول اتجاه تغير المتتالية (u_n) و تقاربها

3) نعتبر المتتالية (v_n) المعرفة من أجل كل عدد طبيعي n بـ : $v_n=\frac{u_n-1}{u_n+1}$

أ- بيّن أن (v_n) متتالية هندسية أساسها $\frac{1}{2}$ يطلب تعيين حدها الأول.

ب- عبّر بدلالة n عن v_n و u_n ثم أحسب $\lim\limits_{n\to+\infty}u_n$.

4) أحسب بدلالة n المجموع : $S_n=v_n+v_n+....+v_{n+2016}$.

ثم استنتج بدلالة n المجموع : $S'_n=\frac{1}{u_n+1}+\frac{1}{u_{n+1}+1}+....+\frac{1}{u_{n+2016}+1}$.

التمرين العشرون[باك 2018] [م1] (4ن)

(u_n) متتالية عددية معرفة بحدها الأول u_0 حيث $u_0=1$ و من أجل كل عدد طبيعي n : $u_{n+1}=1-\frac{9}{u_n+5}$.

1) أ- برهن بالتراجع أنه من أجل كل عدد طبيعي n : $u_n>-2$.

ب- بيّن أن (u_n) متتالية متناقصة تماما على $\mathbb{N}$ و استنتج أنها متقاربة.

2) نضع من أجل كل عدد طبيعي n : $v_n=\frac{1}{u_n+2}$

- أثبت أن (v_n) حسابية أساسها $\frac{1}{3}$ يطلب تعيين حدها الأول.

3) عبّر بدلالة n عن v_n و u_n ، و أحسب $\lim\limits_{n\to+\infty}u_n$.

4) بيّن أنه من أجل كل عدد طبيعي n : $u_0v_0+u_1v_1+.....+u_nv_n=\frac{1}{3}(1-n^2)$

التمرين الواحد و العشرون[باك 2018] [م2] (4ن)

(u_n) متتالية عددية معرفة كما يلي : $u_0=0$ و من أجل كل عدد طبيعي n : $u_{n+1}=u_n+\ln\left(\frac{2n+3}{2n+1}\right)$.

1) أحسب كلا من u_1,u_2 و u_3

2) بيّن أنه من أجل كل عدد طبيعي n : $\frac{2n+3}{2n+1}>1$ ثم استنتج إتجاه تغير المتتالية (u_n) .

3) (v_n) متتالية عددية معرّفة من أجل كل عدد طبيعي n بـ : $v_n=2n+1$

أ- برهن بالتراجع أنه من أجل كل عدد طبيعي n ، $e^{u_n}=v_n$.

ب- استنتج عبارة الحد العام للمتتالية (u_n) بدلالة n ثم أحسب $\lim\limits_{n\to+\infty}u_n$.

4) أحسب المجموعين S_n و T حيث : $S_n=\ln\left(\frac{v_1}{v_0}\right)+\ln\left(\frac{v_2}{v_1}\right)+...+\ln\left(\frac{v_n}{v_{n-1}}\right)$ و $T=e^{u_{1439}}+e^{u_{1440}}+...+e^{u_{2018}}$

لا تنسونا بصالح دعائكم ☺