الجمهورية الجزائرية الديمقراطية الشعبية

وزارة التربية الوطنية | ثانويات مقاطعة عين مران– الهرانفة – تاوقريت – الظهرة – المرسى

امتحان البكالوريا التجريبية | دورة ماي 2023

الشعبة: علوم تجريبية

اختبار في مادة: علوم الطبيعة والحياة | المدة: 04 سا

على المترشح أن يختار أحد الموضوعين الآتيين:

الموضوع الأول

التمرين الأول:(05نقاط)

ترتبط حياة الكائنات الحية بفعالية ما تنتجه من بروتينات حيث تؤطر النشاطات الحيوية المختلفة المسؤولة عن النمو، لذلك يعتبر استهداف إنتاج هذه البروتينات عند الكائنات الممرضة إحدى الاستراتيجيات المنتهجة لتثبيط تكاثر ونمو هذه الكائنات خاصة عند الإنسان، تمثل الوثيقة المقابلة إحدى المراحل المهمة في عملية تركيب البروتين وكذا تأثير بعض المضادات الحيوية على هذه المرحلة.

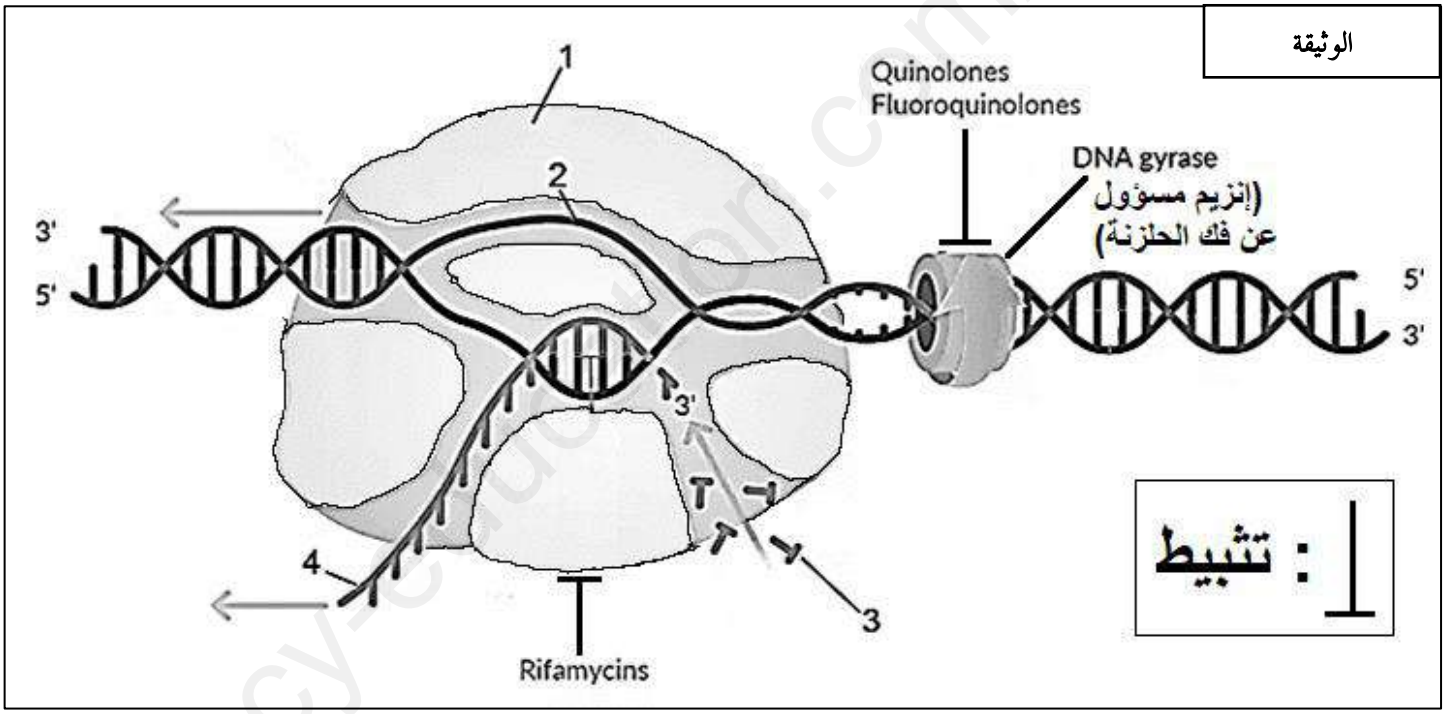

1. **تعرف** على المرحلة الموضحة في الوثيقة وكذا العناصر المرقمة من 1 إلى4.
2. على ضوء المعلومات التي تقدمها الوثيقة **اشرح** في نص علمي منظم ومهيكل خطوات المرحلة الموضحة في الوثيقة **مبرزا** تأثير بعض المضادات الحيوية مثل (Rifamycins –quinolones Fluoroquinolones) على هذه العملية.

www.ency-education.com

التمرين الثاني:(07 نقاط)

مركب Cyanobacterin هو مركب كيميائي تنتجه بكتريا تسمى البكتريا الزرقاء، يحظى هذا المركب باهتمام العلماء لما له من خصائص مضادة للبكتريا والفطريات والفيروسات، نهدف في هذه الدراسة التعرف على بعض تأثيرات هذا المركب.

الجزء الأول:

يتم زرع طحلب أخضر *Euglena gracilis* في ثلاث أوساط مختلفة شروطها موضحة في الشكل (أ) من الوثيقة 01 ثم يتم تقدير عدد خلايا الطحلب في كل وسط، النتائج المحصل عليها موضحة في الشكل (ب) من الوثيقة 01.

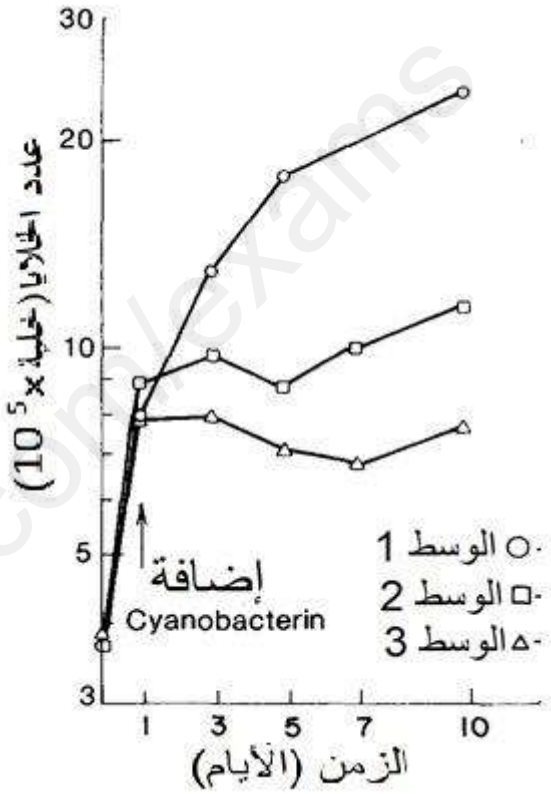

الشكل (ب)

الأوساط	الشروط
01	الطحلب + إضاءة + CO_2
02	الطحلب + إضاءة + CO_2+ مركب Cyanobacterin بتركيز µM4.6
03	الطحلب + إضاءة + CO_2+ مركب Cyanobacterin بتركيز µM46

الشكل (أ)

الوثيقة (01)

1. **قدم** تحليلا مقارنا للنتائج الموضحة في الشكل (ب) من الوثيقة 01.

الجزء الثاني:

لتحديد آلية تأثير مركب Cyanobacterin على الكائنات الحية نقترح عليك الدراسة التالية:

تجربة 01: تم حضن بكتريا Synechococcus (وهي بكتريا لها القدرة على القيام بعملية التركيب الضوئي) في وسط مناسب وخال من المستقبل الطبيعي للإلكترونات ثم يتم تقدير تركيز الأكسجين في شروط مختلفة (الإضاءة، الظلام، مركب Cyanobacterin، المستقبل الاصطناعي للإلكترونات $K_3Fe(CN)_6$، النتائج المحصل عليها موضحة في الشكل (أ) من الوثيقة 02.

تجربة 02: تم حضن بكتريا *A. nidulans* (وهي بكتريا لها القدرة على القيام بعملية التركيب الضوئي) في وسط مناسب وفي وجود مركب DCPIP (مستقبل اصطناعي للإلكترونات) ثم يتم تقدير كمية DCPIP المرجعة في الوسط في شروط مختلفة، النتائج المحصل عليها موضحة في جدول الشكل (ب) من الوثيقة 02.

www.ency-education.com

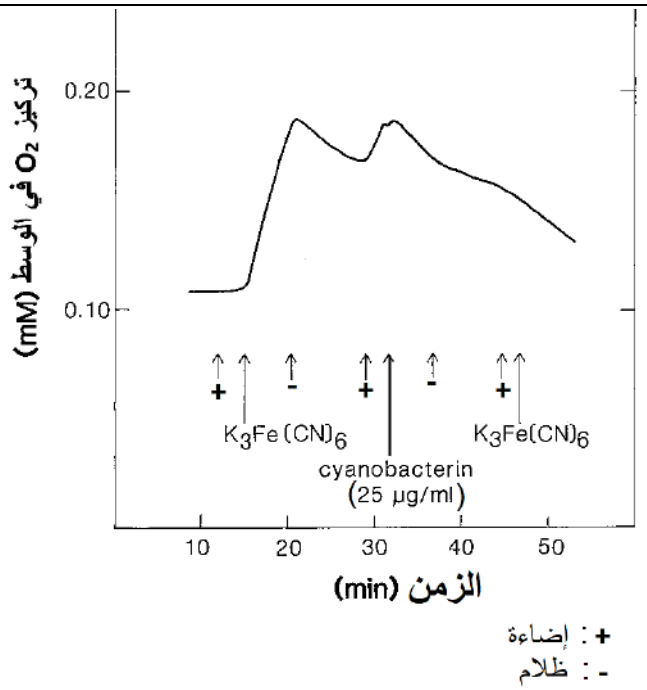

الشكل (أ)

الوسط	كمية DCPIP المرجعة (و إ)
البكتريا + مركب DCPIP	60
البكتريا + مركب DCPIP + مركب DCMU (10nM)	18
البكتريا + مركب DCPIP + مركب DCMU (20nM)	0
البكتريا + مركب DCPIP + مركب Cyanobacterin (0.23nM)	9
البكتريا + مركب DCPIP + مركب Cyanobacterin (2.3nM)	0

الشكل (ب)

الوثيقة (02)

ملاحظة: مركب DCMU عبارة عن مركب يمنع انتقال الالكترونات من PSII إلى PSI.

1. **اشرح** تأثير مركب Cyanobacterin على الكائنات الحية **اعتمادا** على شكلي الوثيقة 02

التمرين الثالث:(08 نقاط)

الكافيين منبه طبيعي موجود في نباتات مختلفة، بما في ذلك القهوة والشاي والكاكاو. كما يضاف إلى العديد من المشروبات والأطعمة الشعبية. يشتهر الكافيين بقدرته على زيادة اليقظة والتركيز، ويستهلكه الكثير من الناس لما له من تأثير منشط.

في السنوات الأخيرة، كان هناك اهتمام متزايد بالفوائد الصحية المحتملة للكافيين، بما في ذلك دوره المحتمل في الحد من الإصابة بالأورام السرطانية.

نهدف في هذه الدراسة تحديد علاقة الكافيين بالجهاز المناعي وتأثيره على الأورام السرطانية.

الجزء الأول:

الأورام السرطانية هي أورام ناتجة عن الانقسام العشوائي للخلايا، يمكن أن تظهر هذه الأورام تلقائيا كما يمكن أن تحفزها عوامل مختلفة كيميائية وفيزيائية مثل مادة MCA-3 التي تعتبر مادة مسرطنة قوية جدا.

تجربة: تم حقن أربع مجموعات من الفئران (كل مجموعة مكونة من ثمانية فئران) بمادة MCA-3 ثم تلقت كل مجموعة تركيزا مختلفا من الكافيين في مياه الشرب (0.02%، 0.04%، 0.08%) بينما لم تتلق إحدى المجموعات الكافيين واعتبرت مجموعة شاهدة، يتم قياس حجم الورم عند كل مجموعة النتائج المحصل عليها موضحة في الشكل (أ) من الوثيقة 01. بينما يوضح الشكل (ب) من نفس الوثيقة دور الجهاز المناعي في التصدي للأورام السرطانية.

www.ency-education.com

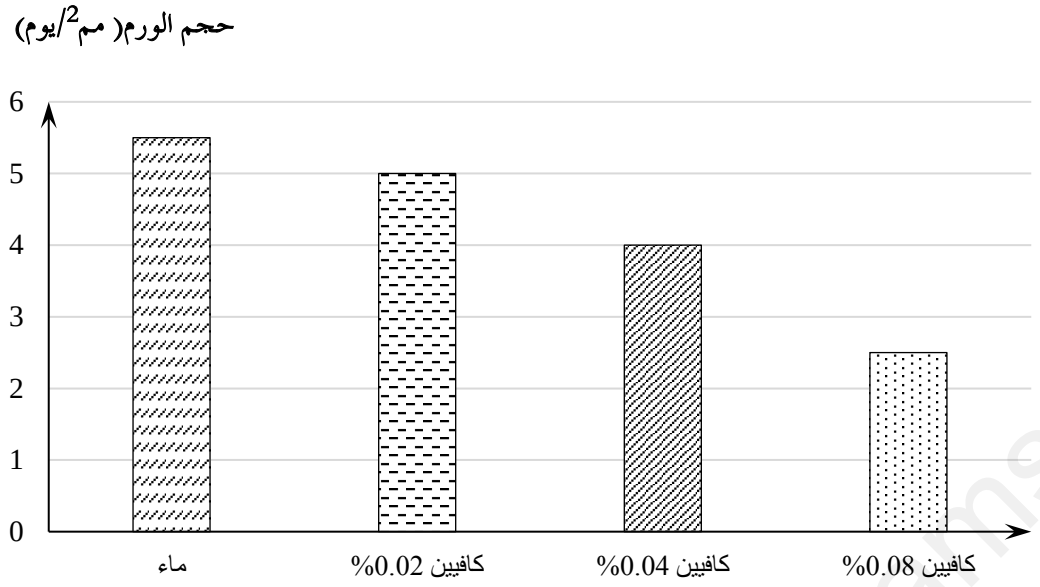

الشكل (أ)

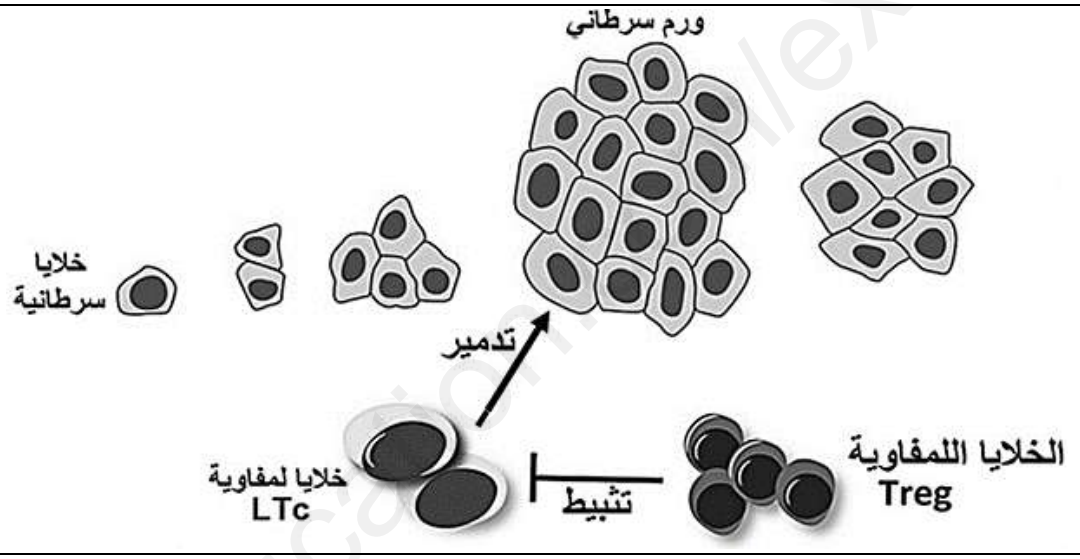

الشكل(ب)

الوثيقة (01)

1. **اقترح** فرضيتين لتفسير تأثير الكافيين على الورم السرطاني **باستغلالك** لأشكال الوثيقة 01.

الجزء الثاني

للتحقق من صحة الفرضيات المقترحة نقترح عليك الدراسة التالية:

أولا: تم تقدير كل من نسبة الخلايا اللمفاوية التائية (LT)، نسبة الخلايا LT8، نسبة الخلايا المناعية المنظمة (Treg) وهذا عند المجموعات الأربعة من الفئران التي تمت دراستها في الجزء الأول، فتم الحصول على الأشكال (أ)، (ب)، (ج) من الوثيقة 02.

ثانيا: لقد وجد أن الخلايا السرطانية في المراحل المتقدمة تقوم بتركيب بروتين يسمى البروتين PD-L1 وهو بروتين يرتبط بالبروتين PD-1 الموجود على سطح الخلايا LT مما يؤدي إلى تثبيط عمل الخلايا LT مثلما يوضحه الشكل (أ) من الوثيقة 03، من جهة أخرى تم تقدير النسبة المئوية للبروتين PD-1 على سطح الخلايا LT4 وLT8 عند المجموعات السابقة من الفئران فتم الحصول على النتائج الموضحة في الشكلين (ب) و(ج) من الوثيقة 03.

www.ency-education.com

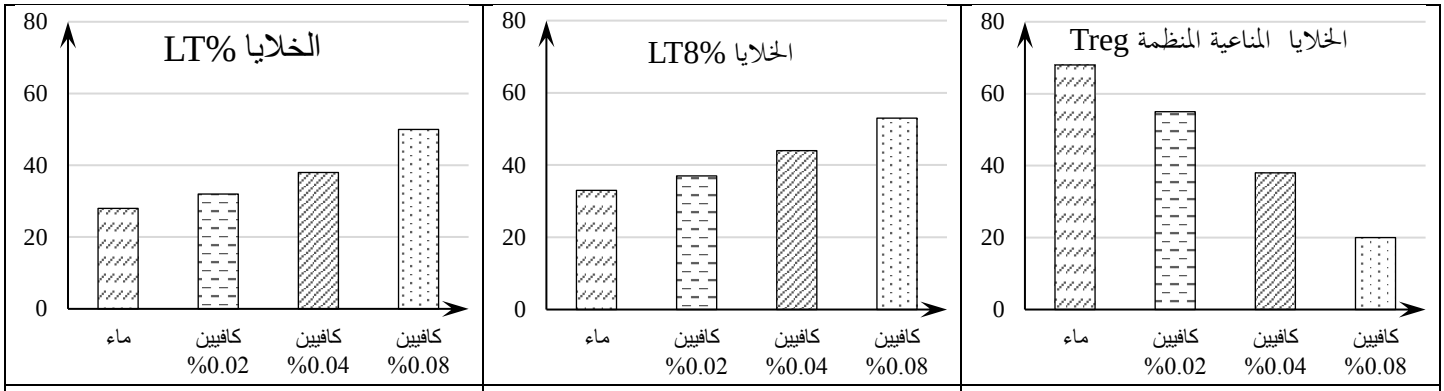

الشكل(أ)	الشكل (ب)	الشكل (ج)

الوثيقة (02)

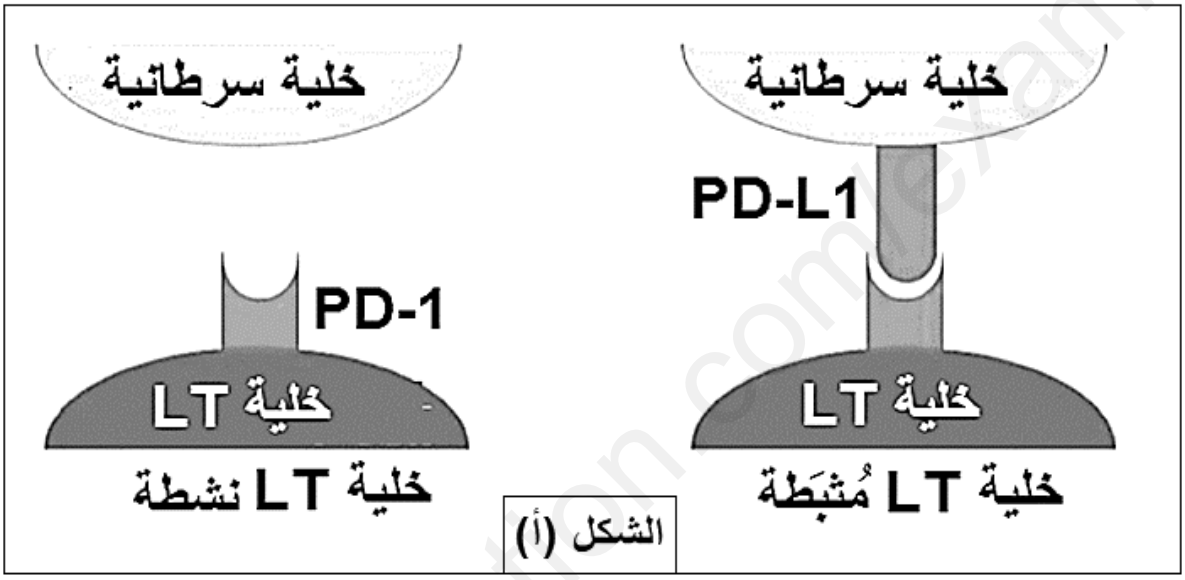

الشكل (أ)

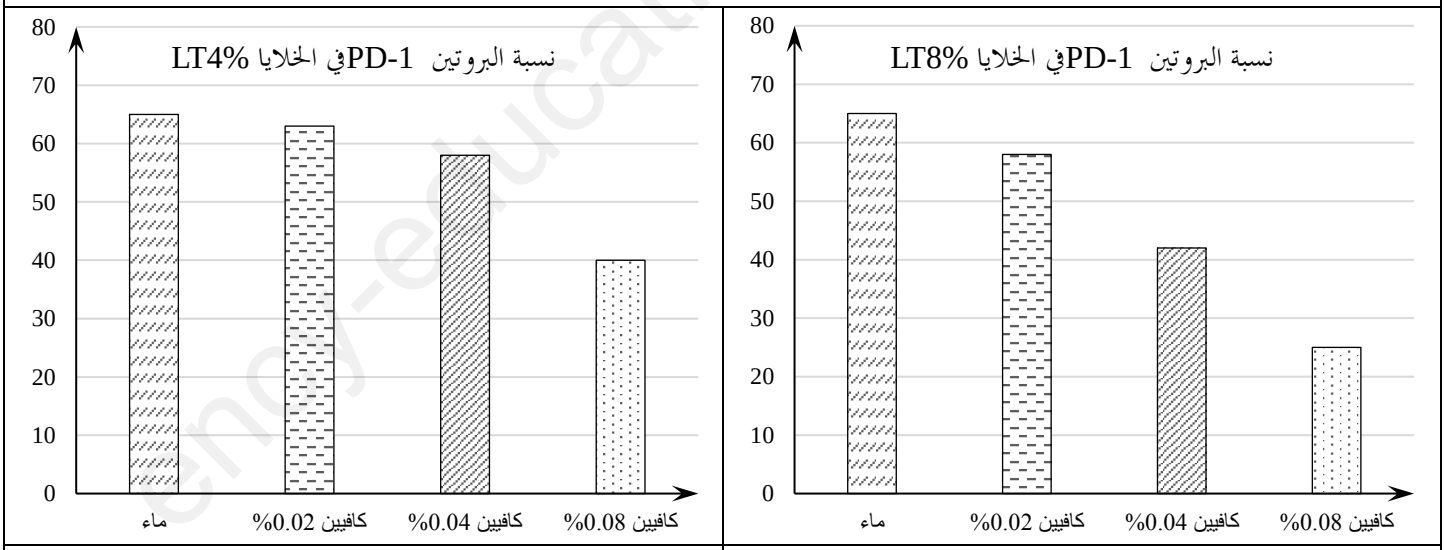

الشكل (ب)	الشكل (ج)

الوثيقة (03)

1. **ناقش** صحة الفرضيات المقترحة سابقا **بالاعتماد** على أشكال الوثيقتين 2 و3.

الجزء الثالث

على ضوء الدراسة السابقة **وضح** في مخطط كيفية ظهور الورم السرطاني ودور الكافيين في القضاء عليه.

انتهى الموضوع الأول

www.ency-education.com

الموضوع الثاني

التمرين الأول:(05 نقاط): تتميز النباتات الخضراء بقدرتها على تركيب المادة العضوية انطلاقا من الكربون المعدني وفي وجود الطاقة الضوئية ضمن عملية التركيب الضوئي إلا أنه يمكن لهذه العملية أن تتأثر ببعض المركبات الكيميائية مثل الأترازين وCa1p، تمثل الوثيقة المقابلة تمثيل لمختلف مراحل هذه العملية وتأثير الأترازين وCa1p عليها.

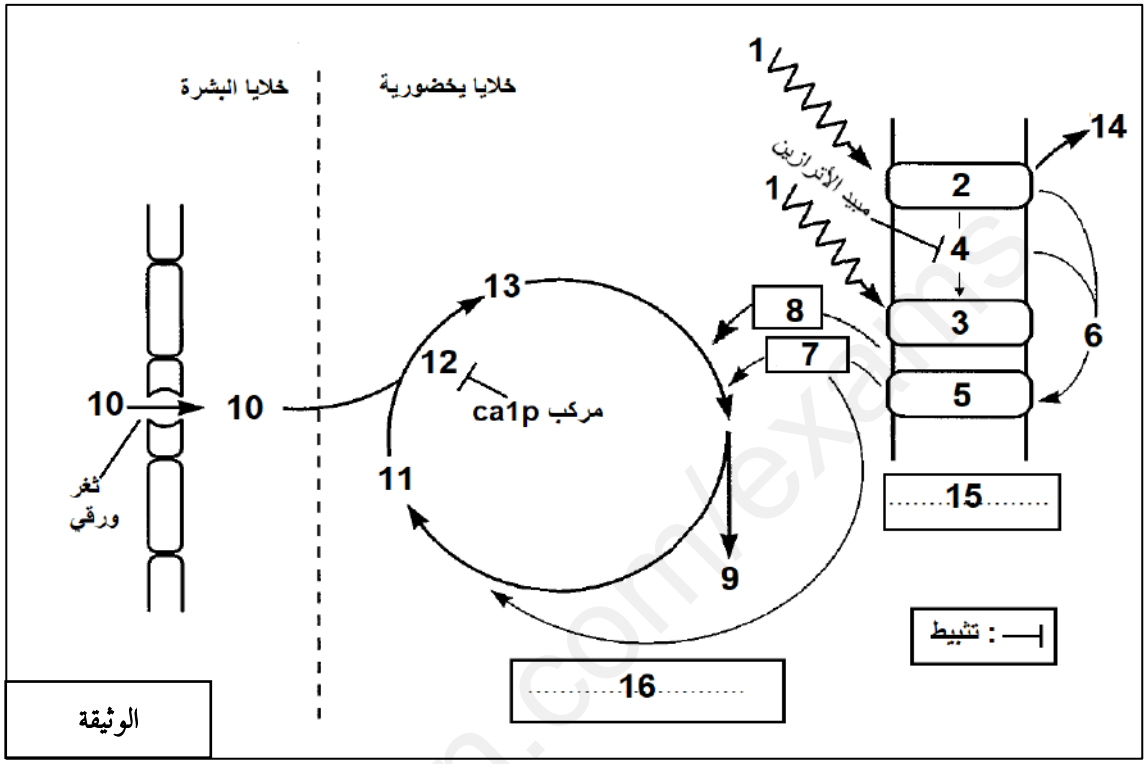

1. **تعرف** على البيانات المرقمة.
2. **اشرح** في نص علمي دور العنصر (1) في تركيب العنصر (9) **مبرزا** تأثير كل من الأترازين والمادة Ca1p على هذه العملية.

التمرين الثاني:(07 نقاط)

يصاب العديد من الأشخاص في سن الشيخوخة (أكثر من 65 سنة) بمرض الزهايمر، الذي يتميز بتراجع مستمر للذاكرة والقدرات الذهنية. نبحث في هذه الدارسة عن أسباب الإصابة بالزهايمر وطرق علاجه.

الجزء الأول: يبين الشكل (أ) من الوثيقة 01 معطيات طبية لثلاث أشخاص في نفس السن (70 سنة)، أحدهما سليم والآخران مصابان بمرض الزهايمر في مراحل مختلفة.

1. **قارن** بين النتائج المسجلة في الوثيقة 01.

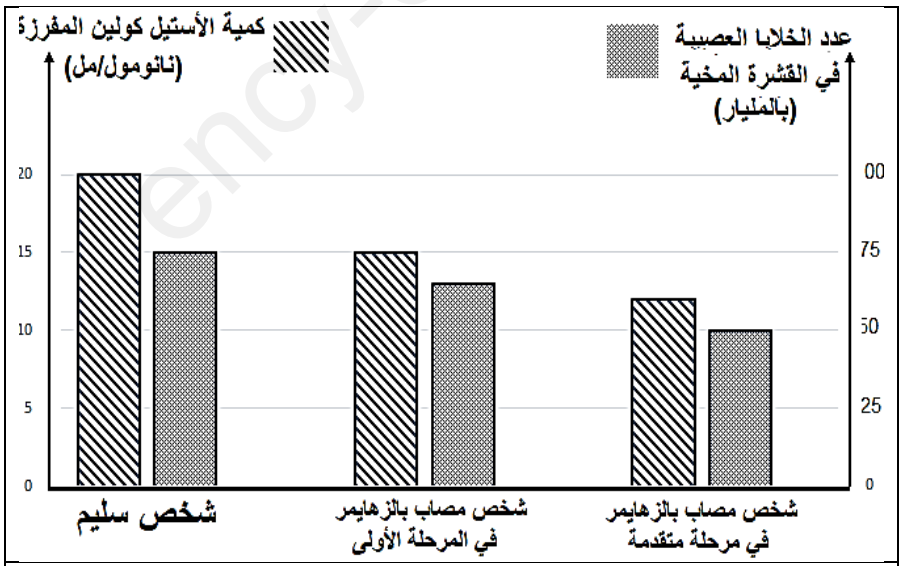

الوثيقة (01)

www.ency-education.com

الجزء الثاني:

تستخدم حاليا عدة علاجات لمرض الزهايمر من أجل التخفيف من أعراضه من بينها دواء Rivastigmine، من أجل التعرف على آلية عمل هذا الدواء نقترح عليك مايلي:

يمثل الشكل (أ) من الوثيقة 02 آلية إنتاج وإفراز وتأثير المبلغ العصبي الأستيل كولين على مستوى المشابك، بينما يوضح الشكل (ب) من نفس الوثيقة نتائج قياس النسبة المئوية للزيادة في كمية الأستيل كولين وكذا نسبة تثبيط إنزيم أستيل كولين إستراز عند مجموعة من الفئران وهذا بعد حقنها بدواء Rivastigmine بتركيز 1µmol/Kg.

من جهة أخرى تم التعرف على آلية عمل إنزيم أستيل كولين إستراز وهذا في وجود الأستيل كولين أو في وجود دواء Rivastigmine مثلما يوضحه الشكل (ج) من الوثيقة 02.

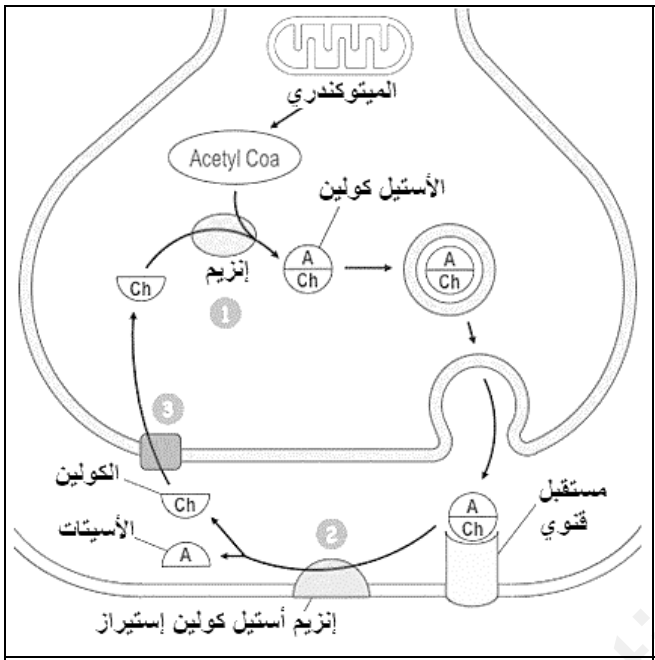

الشكل (أ)

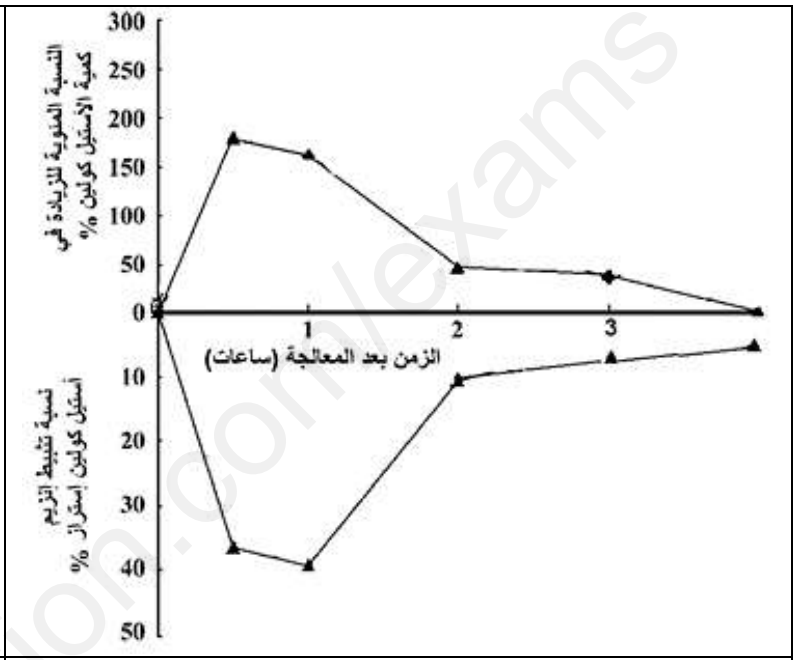

الشكل (ب)

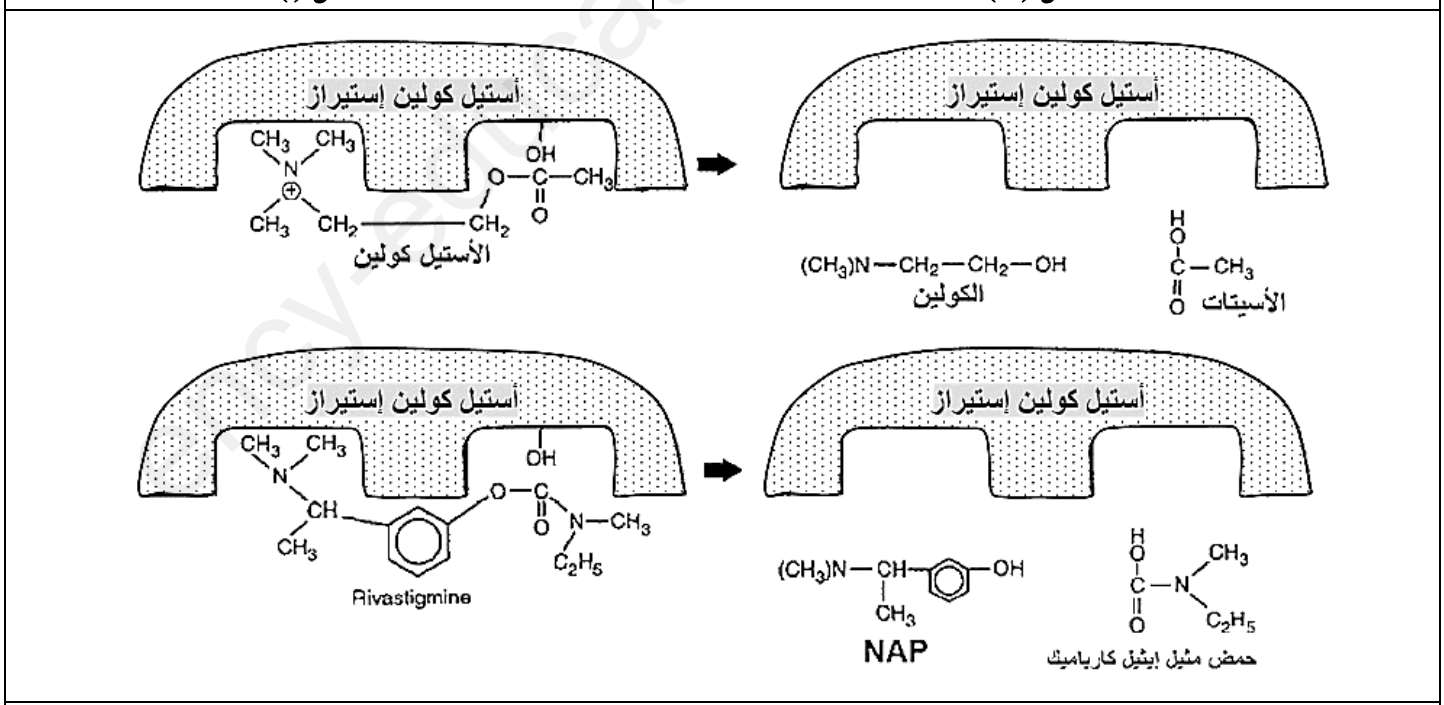

الشكل(ج)

الوثيقة (02)

1. **اشرح** آلية تأثير دواء Rivastigmine بالنسبة للمرضى المصابين بالزهايمر. **بالاعتماد** على أشكال الوثيقة 02.

www.ency-education.com

التمرين الثالث:(08 نقاط)

داء الانسداد الرئوي المزمن (COPD) مرض يؤدي إلى إعاقة تدفق الهواء الخارج من الرئتين نتيجة ارتخاء الأسناخ الرئوية وفقدان مرونتها بسبب تخريب بروتين الإيلاستين الذي يساهم في بنائها ومرونتها، من أهم أعراضه صعوبة التنفس. نريد في هذه الدراسة التعرف على أسباب الإصابة بهذا المرض.

الجزء الأول:

الإيلاستاز عبارة عن إنزيم تفرزه بعض الخلايا المناعية أثناء الاستجابة ضد الإصابات البكتيرية حيث يعمل على تفكيك جدرانها ومن أجل حماية بروتينات العضوية يفرز الكبد بروتين مضاد التربسين (α1-antitrypsine) خاصة على مستوى الأنسجة الرئوية، يمثل الشكل (أ) من الوثيقة 01 خليتين رئويتين إحداهما لشخص سليم والثانية لشخص مصاب بداء الانسداد الرئوي المزمن.

أكدت الكثير من الدراسات أن هناك علاقة بين التدخين والإصابة بمرض الانسداد الرئوي المزمن لاحتواء السجائر على مادة بيروكسيد الهيدروجين (H_2O_2)، يمثل الشكل (ب) من الوثيقة 01 نتائج قياس نشاط بروتين مضاد التربسين في وجود مادة بيروكسيد الهيدروجين.

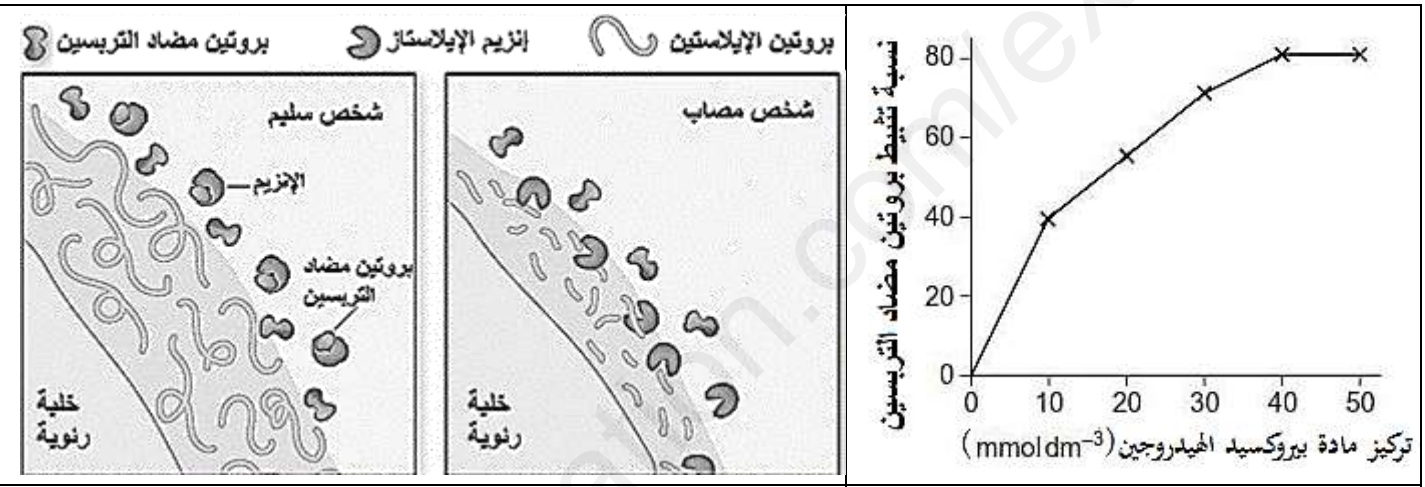

الشكل (ب)	الشكل(أ)
الوثيقة (01)	

1. **اقترح** فرضية تفسر بها العلاقة بين تناول السجائر والإصابة بمرض الانسداد الرئوي المزمن **بالاعتماد** على الشكلين (أ) و(ب) من الوثيقة 01

الجزء الثاني:

لغرض التعرف على آلية تأثير بيروكسيد الهيدروجين على بروتين مضاد التربسين نقترح عليك الدراسات التالية:

يمثل الشكل (أ) من الوثيقة 02 نموذج يعرض البنية الفراغية لبروتين مضاد التربسين مع تكبير لأحد الأجزاء المهمة من هذا البروتين، بينما يمثل الشكل (ب) من نفس الوثيقة جدول لنتائج تجريبية أجريت على بروتين مضاد التربسين.

www.ency-education.com

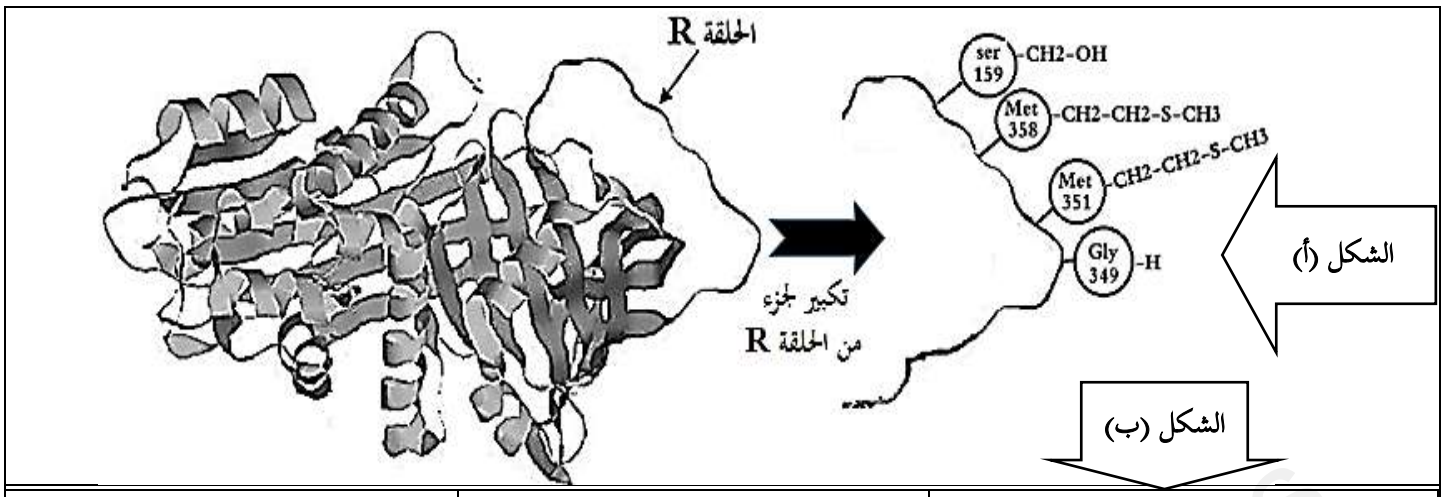

الحلقة R	وجود الحلقة R في البروتين مضاد التربسين	غياب الحلقة R في البروتين مضاد التربسين
تشكل المعقد "إيلاستاز-بروتين مضاد التربسين"	+	–

الوثيقة (02)

من جهة أخرى تم تمثيل نماذج للبنية الفراغية لإنزيم الإيلاستاز والحلقة R للبروتين مضاد التربسين في حالة غياب مادة بيروكسيد الهيدروجين (الشكل"أ"من الوثيقة 03) وفي حالة وجودها (الشكل "ب" من الوثيقة 03).

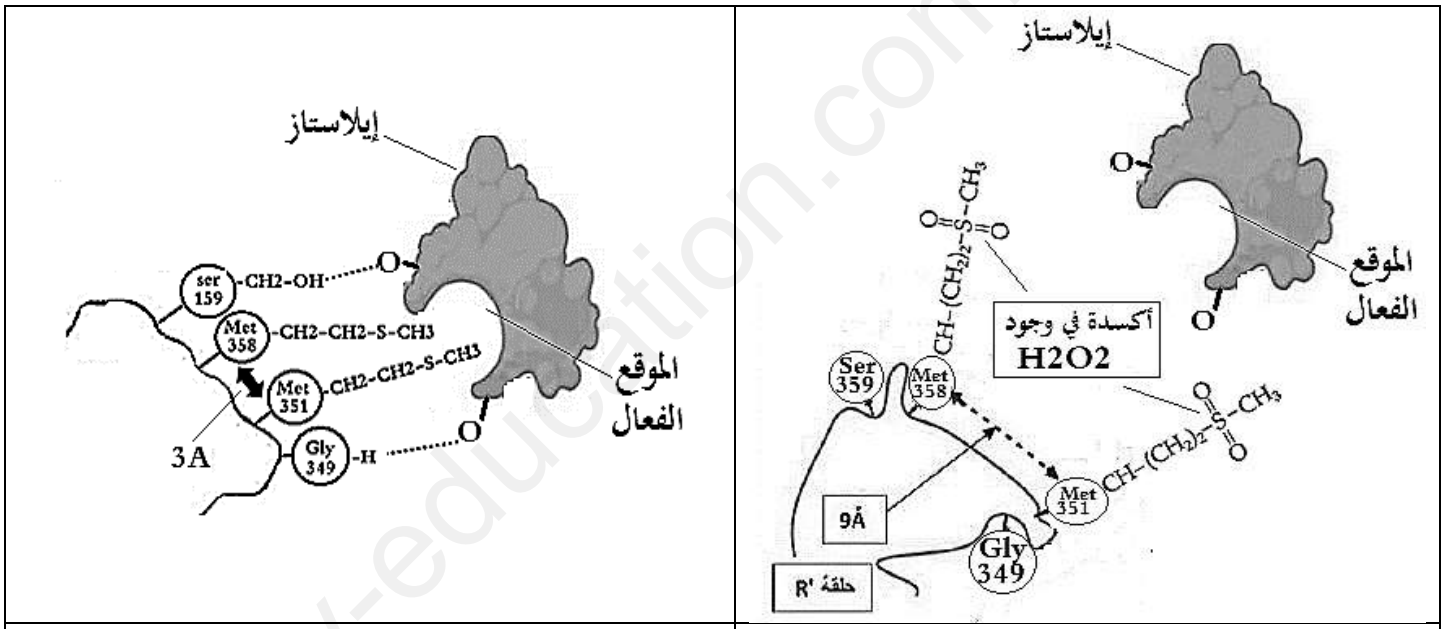

الشكل (أ)	الشكل (ب)

الوثيقة (03)

1. **اشرح** العلاقة بين تناول السجائر والإصابة بمرض الانسداد الرئوي المزمن ثم **صادق** على صحة الفرضية المقترحة سابقا. **باستغلالك** لأشكال الوثيقتين 2 و3.

الجزء الثالث:

على ضوء ما سبق **اكتب** فقرة علمية **توضح** فيها أهمية استقرار البنية الفراغية للبروتينات **وتأثير** بعض المواد الكيميائية مثل بيروكسيد الهيدروجين على ذلك.

www.ency-education.com

العلامة النهائية	العلامة الجزئية	الإجابة المقترحة للبكالوريا التجريبية مقاطعة ثانويات عين مران – الهرانفة – تاوقريت – الظهرة – المرسى2022 –2023 الموضوع الأول

التمرين الأول:

1. التعرف على المرحلة الموضحة في الوثيقة وكذا العناصر المرقمة:

المرحلة الموضحة في الوثيقة هي مرحلة الإستنساخ

العناصر المرقمة:

1	إنزيم الاستنساخ (ARN polymerase)	3	نيكليوتيدات ARN(ذات ريبوز عادي)
2	سلسلة ADN غير مستنسخة (قالب)	4	سلسلة ARN

2. **نص علمي** منظم ومهيكل خطوات المرحلة الموضحة في الوثيقة مبرزا تأثير بعض المضادات الحيوية مثل (Rifamycins –quinolones Fluoroquinolones) على هذه العملية.

مقدمة: ترتبط حياة الكائنات الحية بفعالية ما تنتجه من بروتينات حيث تؤطر النشاطات الحيوية المختلفة المسؤولة عن النمو، لذلك يعتبر استهداف إنتاج هذه البروتينات عند الكائنات الممرضة إحدى الاستراتيجيات المنتهجة لتثبيط تكاثر ونمو هذه الكائنات خاصة عند الإنسان. وقد **يتم ذلك باستعمال مضادات حيوية تستهدف إحدى مراحل تركيب البروتين مثل استنساخ المعلومة الوراثية**

فما تأثير بعض المضادات الحيوية مثل (Rifamycins –quinolones Fluoroquinolones) على هذه العملية؟

العرض:

يتم تركيب البروتين وفق مرحلتين: الاستنساخ والترجمة

الاستنساخ مرحلة ضرورية تضمن نقل المعلومة الوراثية من النواة إلى الهيولى حيث تترجم إلى بروتين

يتم الاستنساخ بتدخل إنزيمات نوعية ومتخصصة

مثل إنزيم (DNA Gyrase) الذي يقوم بفك تحلزن الـــADN .

وإنزيم الاستنساخ (ARN Polymerase) الذي يركب سلسلة ARN إعتمادا على سلسلة ADN قالب وفق تقابل القواعد (U تقابل A – C تقابل G– و A تقابل T)

في الحالة العادية تعمل الانزيمات عند البكتيريا مما يسمح بإنتاجها بروتيناتها الوظيفية وتكاثرها ونشاطها داخل العضوية

عند استخدام بعض المضادات الحيوية يمكن استهداف هذه الإنزيمات

مثل Rifamycins الذي يثبط نشاط (ARN Polymérase) فيوقف الاستنساخ

أو quinolones Fluoroquinolones الذيثبط نشاط الإنزيم (DNA Gyrase) فلا يتم فك الحلزنة وبالتالي عرقلة الاستنساخ وإيقاف تركيب البروتين.

الخاتمة: تثبيط الانزيمات المتدخلة في الاستنساخ الذكورة سابقا يؤدي إلى إيقاف تركيب البروتين مما يؤدي إلى كبح نشاط البكتيريا وتكاثرها

التمرين الثاني:(07 نقاط)

الجزء الأول:

1. تحليل مقارن للنتائج الموضحة في الشكل (ب) من الوثيقة 01.

الشكل (ب): يمثل منحنيات بيانية لتغيرات عدد خلايا الطحلب في أوساط ذات شروط مختلفة حيث نلاحظ:

www.ency-education.com

(0–1) يوم: تزايد سريع عدد الخلايا **في كل الأوساط** من 4 خلية 10^{-5*} لتصل إلى 8 خلية 10^{-5*} في الوسط 1 و 3 .وتصل 9 خلية 10^{-5*} في الوسط 2.

(1– 10) يوم: استمرار التزايد السريع لعدد الخلايا في الوسط 1 ليصل مما يدل على توفر الطاقة اللازمة للتكاثر في وجود الضوء

أما في الوسط 2 فيكون تزايد عدد الخلايا أقل من الوسط 1 وتصل مما يدل على التأثير السلبي لمركب Cyanobacterin

والوسط 3 يقل عدد الخلايا ثم يتزايد أقل من الأوساط السابقة وتصل مما يؤكد على التأثير السلبي لمركب Cyanobacterin

الاستنتاج: مركب Cyanobacterin يؤثر سلبا على التكريب الضوئي للطحالب الخضراء

الجزء الثاني:

1. استغلال أشكال الوثيقة 02:

الشكل (أ): يوضح منحنى تغير تركيز O_2 المنطلق من طرف بكتيريا Synechococcus في وجود وغياب الضوء ومستقبل الإلكترونات $K_3Fe(CN)_6$ حيث نلاحظ:

–(10–15دقيقة) **قبل أضافة مستقبل الاكترونات في وجود وغياب الضوء** يبقى تركيز الأكسجين ثابتا عند ..... مما يدل على عدم وجود تفاعلات تستخدم الأكسجين.

–(15–20 دقيقة) **عند إضافة مستقبل الإلكترونات** يتزايد تركيز الأكسجين ليصل ..... مما يدل على إنتاجه

–(20–30 دقيقة) **في الظلام** تناقص الأكسجين ليصل ..... مما يدل على استهلاكه

–(30– 32 دقيقة) **في وجود الضوء** يتزايد تركيز الأكسجين ليصل ..... مما يدل على إنتاجه

–(32– 50دقيقة) **عند إضافة مركب Cyanobacterin في وجود الضوء ومستقبل الإلكترونات أو غيابهما:** يتناقص تركيز الأكسجين ليصل ..... مما يدل على استهلاكه وعدم إنتاجه أي المركب Cyanobacterin يعرقل تفاعل إنتاج الأكسجين (أكسدة الماء)

الاستنتاج: المركب Cyanobacterin يعرقل التكريب الضوئي للبكتيريا الضوئية من خلال إعاقته تفاعل أكسدة الماء سواءا في وجود أو غياب الضوء ومستقبل الالكترونات.

الشكل(ب):يمثل جدول لكمية DCPIP المرجعة في الوسط في شروط مختلفة حيث نلاحظ:

– أن البكتريا في وجود مركب DCPIP تكون كمية DCPIP المرجعة 60 وإ

– أما في وجود مركب DCMU (10nM) تكون كمية DCPIP المرجعة 18 وإ

– و **تنعدم** في وجود مركب DCMU (20nM) مما يدل على أن DCMU يعيق إرجاع مستقبل الاكترونات DCPIP

– البكتريا في وجود مركب DCPIP ومركب Cyanobacterin (0.23nM) تكون كمية DCPIP المرجعة 9 وإ

– و **تنعدم** في وجود مركب Cyanobacterin (2.3nM)

وهذا يدل على أن المركب Cyanobacterin يعيق إرجاع مستقبل الاكترونات DCPIP

الاستنتاج: المركب Cyanobacterin له نفس دور المركب DCMU في منع إرجاع مستقبل الإلكترونات.

شرح تأثير مركب Cyanobacterin على الكائنات الحية

مما سبق نستنتج أن مركب Cyanobacterin يعيق تفاعلات أكسدة الماء وكذا تفاعل إرجاع مستقبل الألكترونات وعمله مماثل لعمل DCMU الذي يمنع انتقال انتقال الإكترونات من PSII إلى PSI.

www.ency-education.com

ومن فإن هذا المركب Cyanobacterin يمنع تفاعلات التركيب الضوئي للمرحلة الكيموضوئية من خلال منع انتقال الاكترونات بين الأنظمة الضوئية فلا يتم أكسدة والماء ولا إرجاع مستقبل الاكترونات .فتتوقف تفاعلات المرحلة الموالية التي تتطلب نواتج هذه المرحلة. وبتوقف بناء المادة العضوية يتوقف تكاثر الخلايا المعتمدة على هذه الظاهرة

التمرين الثالث:(08 نقاط)

الجزء الأول:

1. **استغلال أشكال الوثيقة (01):**

الشكل (أ): يوضح مدرج تكراري لتغيرات حجم الورم السرطاني في غياب ووجود الكافيين في مياه الشرب لفئران مصابة بورم سرطاني حيث نلاحظ:

في غياب الكافيين كان حجم الورم حوالي .....

أما في وجود الكافيين بتراكيز متزايدة من (0.02%، 0.04%، 0.08%) يتناقص حجم الورم ليصبح ..... و ..... و ..... على التواي مما يدل على أن الكافيين يعيق تطور الورم

الاستنتاج: مادة الكافيين تعيق تطور الخلايا السرطانية فيتراجع حجم الورم.

الشكل (ب):يوضح الشكل أن الخلايا السرطانية تتكاثر باستمرار مما يؤدي الى تشكل ورم يزداد حجمه لكن الخلايا LTc تنشط من أجل تدمير الورم إلا أنه توجد خلايا لمفاوية Treg تثبط الخلايا LTcمما يسمح باستمرار الورم.

الاستنتاج: يتطور الورم في وجود خلايا Treg تثبط الخلايا LTcمما يسمح باستمرار الورم.

الفرضيات المقترحة لتأثر الكافيين على الورم السرطاني:

ف1: ينشط الكافيين الخلايا LTc

ف2: يثبط الكافين الخلايا Treg

الجزء الثاني:

1. استغلال أشكال الوثائق:

الوثيقة(01): توضح الوثائق مدرجات تكرارية لنسبة الخلايا اللمفاوية التائية (LT)، نسبة الخلايا LT8، نسبة الخلايا المناعية المنظمة (Treg) وهذا عند المجموعات الأربعة من الفئران التي أعطيت الكافيين بتراكيز متزايدة من (0%، 0.02%، 0.04%، 0.08%)

الشكل (أ): تكون نسبة الخلايا LTمتزايدة ..... و ..... و ..... و ..... على التوالي

الشكل (ب): تكون نسبة الخلايا LT8 متزايدة ..... و ..... و ..... و ..... على التوالي

الشكل (ج): تكون نسبة الخلايا Treg متناقصة ..... و ..... و ..... و ..... على التوالي

الاستنتاج: الكافيين يسمح بزيادة عدد الخلايا اللمفاية التائية خاصة LT8 لكنه يكبح تكاثر الخلايا Treg.

الوثيقة (02):

الشكل(أ): يوضح علاقة الخلايا السرطانية بالخلايا LT حيث نلاحظ أن الخلايا السرطانية ذات البروتين PD-L1 تثبط الخلية LT عن طريق الاتباط بمستقبلها PD-1. أما الخلايا السرطانية التي لا تملك البروتين PD-L1 لا يمكنها تثبيط اللمفاويات LT.

الاستنتاج: الخلايا السرطانية تصنع بروتين PD-L1 الذي يسمح بإعاقة نشاط الخلايا LT وهذا يسمح بتطور الورم

www.ency-education.com

الشكل (ب): يوضح مدرج تكراري لنسبة البروتين PD-1 في الخلايا LT8 للفئران التي أعطي لها الكافيين بتراكيز متزايدة من (0%، 0.02%، 0.04%، 0.08%) حيث نلاحظ أن نسبة البروتين تكون متناقصة في المجموعات الأربعة حيث وجدت ..... و ..... و ..... و ..... على التوالي.

الاستنتاج: الكافيين يعمل على منع بناء البروتين PD-1 لدى الخلايا LT8

الشكل (ب): يوضح مدرج تكراري لنسبة البروتين PD-1 في الخلايا LT4 للفئران التي أعطي لها الكافيين بتراكيز متزايدة من (0%، 0.02%، 0.04%، 0.08%) حيث نلاحظ أن نسبة البروتين تكون متناقصة في المجموعات الأربعة حيث وجدت ..... و ..... و ..... و ..... على التوالي.

الاستنتاج: الكافيين يعمل على منع بناء البروتين PD-1 لدى الخلايا LT4

المناقشة:

– **مما سبق نلاحظ** أن الكافيين يعيق تكاثر الخلايا Treg وهذا يسمح بتكاثر الخلايا LT التي تنشط ضد الورم فتحد من تكاثره

– كما يعمل الكافيين على تثبيط إنتاج بروتين PD-1 لدى الخلايا LT8 وLT4 مما يسمح بنشاطها نظرا لعدم قدرة الخلايا السرطانية ذات البروتين PD-L1 أن ترتبط بها وتثبطها.

– **ومنه فإن الفرضيات المقترحة صحيحة**

– فالكافيين يثبط نشاط الخلايا Tregمن جهة مما يسمح بنشاط الخلايا LTc

– ومن جهة أخرى كذلك الكافيين يمنع تركيب البروتين PD-1 من طرف الخلايا LT8 التي تصبح LTc و LT4 التي تصبح LTh وبالتالي تنشط الاستجابة المناعية في غياب تثبيط لها من طرف الخلايا السرطانية بالبروتين PD-L1.

الجزء الثالث:

المخطط

www.ency-education.com

الموضوع الثاني

التمرين الأول:

1. التعرف على البيانات المرقمة

.1	ضوء	.2	PSII	.3	PSI	.4	نواقل الكترونات
.5	ATPsynthese	.6	بروتونات H^+	.7	ATP	.8	$NADPH,H^+$
.9	جلوكوز	.10	CO_2	.11	RuDP	.12	RuBiSCo
.13	APG	.14	O_2	.15	مرحلة كيموضوئية	.16	مرحلة كيموحيوية

2. نص علمي حول دور الضوء في بناء الجلوكوز وإبراز دور ال الأترازين والمادة ca1p على هذه العملية.

المقدمة : تتضمن مشكل

العرض: تتضمن الأفكار

- دور الضوء **مصدر** للطاقة
- الضوء **يؤدي** إلى تغير كمون الأكسدة والارجاع مما يسمح هذا بأكسدة الأنظمة الضوئية وكذا **يسمح بانتقال** الالكترونات **وفق تدرج** كمون الأكسدة و الارجاع
- تتم أكسدة الماء لتعويض الإلكترونات المفقودة من النظام الضوئي PSII
- يتم إرجاع مستقبل الالكترونات الطبيعي الموجود في الحشوة لينقل الطاقة من المرحلة الكيموضوئية إلى الكيموحيوية
- خلال المرحلة الكيموحيوية يثبت CO_2 وينتج جلوكوز باستغلال نواتج المرحلة الكيموضوئية
- تعمل بعض المواد الكيمسائية على **عرقلة** بعض البروتينات المتدخلة في تفاعلات التركيب الضوئي فتعيقه مثل
  - ❖ الاترازين الذي يثبط انتقال الإلكترونات بين النظامين الضوئيين وهذا يؤدي إلى توقف المرحلة الكيموضوئية
  - ❖ مركب ca1p يثبط إنزيم RuBiSCo فلا يتم تثبيت CO_2 في المرحلة الكيموحيوية
- توقف إحدى المرحلتين يؤدي إلى توقف الأخرى لأن نواتج كل منهما متطلب للأخرى

الخاتمة: يعتمد التركيب الضوئي على النشاط العادي المنظم لمختلف بروتينات الصانعة الخضراء وبوجود مواد كيميائية يمكن تثبيط بناء المادة العضوية وهذا يعتبر مبدءا مهما لصناعة مبيدات الاعشاب

التمرين الثاني:(07 نقاط)

الجزء الأول:

1. **المقارنة بين النتائج المسجلة في الوثيقة 01 :** تبين معطيات طبية لثلاث أشخاص في نفس السن (70سنة)، أحدهما سليم والآخران مصابان بمرض الزهايمر في مراحل مختلفة حيث نلاحظ:

– الشخص السليم تكون **كمية الأستيل** كولين عنده مرتفعة (20 نانومول/مل) ،هي **أعلى** من الشخص المصاب بالزهايمر في المرحلة الأولى حيث تكون عنده حوالي (15 نانومول/مل) وهي بدورها **أعلى** من الشخص المصاب بالزهايمر في مرحلة متقدمة الذي تكون عنده نسبة الأستيل كولين حوالي(12 نانومول/مل)

– كما يكون عند الشخص السليم **عدد الخلايا العصبية** في القشرة المخية مرتفعا (75 مليار) وهي **أعلى** من الشخص المصاب بالزهايمر في المرحلة الأولى حيث تكون عنده حوالي (.....) وهي بدورها **أعلى** من الشخص المصاب بالزهايمر في مرحلة متقدمة الذي تكون عنده عدد الخلايا العصبية حوالي(50 مليار)

الاستنتاج: سبب مرض الزهايمر هو نقص الخلايا العصبية في القشرة المخية الذي ينتج عنه كذلك نقص كمية الوسيط العصبي الأستيل كولين.

www.ency-education.com

الجزء الثاني:

1. شرح آلية تأثير دواء Rivastigmine بالنسبة للمرضى المصابين بالزهايمر.

استغلال اشكال الوثيقة (02):

الشكل (أ): يوضح آلية إنتاج وإفراز وتأثير المبلغ العصبي الأستيل كولين على مستوى المشابك حيث نلاحظ أن الأستيل كولين يتركب من جزأين هما جزء الكولين وجزء الـــ Acetyl CoA ثم يخزن على مستوى الحويصلات ، وبعد إفرازه في الشق المشبكي يتثبت على المستقبل القنوي ثم يفكك من طرف الإنزيم أستيل كولين استيراز إلى جزئين هما الأسيتات و الكولين الذي يمتص من طرف الخلية قبل المشبكية بقناة خاصة ليستخدم في بناء الأوسيط الأستيل كولين من جديد

الاستنتاج: الأستيل كولين مركب من جزأين قابلين لإعادة الاستخدام بعد هدمه

الشكل (ب): يوضح منحنيات لنتائج قياس النسبة المئوية للزيادة في كمية الأستيل كولين وكذا نسبة تثبيط إنزيم أستيل كولين إستراز عند مجموعة من الفئران وهذا بعد حقنها بدواء Rivastigmine بتركيز 1µmol/Kg.

حيث نلاحظ:

(0– 0.5 سا) تزايد النسبة المئوية للزيادة في كمية الأستيل كولين من 0 إلى 180% في نفس الوقت تتزايد نسبة تثبيط الإنزيم أستيل كولين أستيراز من 0 لتبلغ 38%.

(0.5– 4 سا) تناقص النسبة المئوية للزيادة في كمية الأستيل كولين لتنعدم وفي نفس الوقت زايدة طفيفة لنسبة تثبيط الأستيل كوالين لتبلغ 40% عند 1 سا، ثم تنخفض نسبة تثبيط الإنزيم أستيل كولين أستيراز إلى أن تصل 5%.

الاستنتاج: يعمل الدواء Rivastigmine على رفع النسبة المئوية للزيادة في كمية الأستيل كولين من خلال تثبيط الانزيم استيل كولين أستيراز.

الشكل(ج):يوضح آلية عمل إنزيم أستيل كولين إستراز وهذا في وجود الأستيل كولين أو في وجود دواء Rivastigmine حيث نلاحظ أن الإنزيم أستيل كولين أستيراز يمكنه أن يثبت الأستيل كولين وكذا الدواء Rivastigmine لتشابه بنيتهما الفراغية . ويمكنه أن يفككهما فينتج عن الأستيل كولين جزئين: الأسيتات و الكولين. وينتج عن الـــ Rivastigmine حمض ميثيل إيثيل كالاباميك ومركب NAP.

الاستنتاج: كل من الاستيل كولين ودواء Rivastigmine مواد تفاعل بالنسبة للإنزيم استيل كولين أستيراز لتشابههما فيتنافسان على الموقع الفعال للإنزيم.

الشرح: مما سبق نقول أن:

الدواء Rivastigmine يثبط نشاط الإنزيم في تفكيك الأستيل كولين عن طريق تنافسه معه على موقعه الفعال لتشابههما . وهذا ينتج عنه تأخر تفكيك الأستيل كولين فتزداد كميته وهذا يعوض النقص الناتج عند المرضى بالزهايمر لنقص عدد الخلايا العصبية. ومنه يمكن تقليل أعراض مرض الزهايمر بتضخيم إشارة الوسيط العصبي.

www.ency-education.com

التمرين الثالث:(08 نقاط)

الجزء الأول:

1. استغلال اشكال الوثيقة(01) :

الشكل (أ) : يمثل خليتين رئويتين إحداهما لشخص سليم والثانية لشخص مصاب بداء الانسداد الرئوي المزمن. حيث نلاحظ تواجد إنزيم الإيلاستاز الذي يفكك بروتين الإيلاستين لكن الشخص السليم يملك بروتين مضاد التربسين الذي يتثبت على إنزيم الإيلاستاز فيمنعه من هدم بروتينات الخليا الرئوية لديه.

أما عند الشخص المريض فنلاحظ تواجد بروتين مضاد التربسين لكن لا يتثبت على إنزيم الإيلاستاز فيعمل على هدم جدران الخلايا الرئوية لديه

الاستنتاج: يوجد عند المريض خلل على مستوى بروتين مضاد الايلاستاز فلا يقوم بتثبيط إنزيم الايلاستاز عن المريض بالانسداد الرئوي

الشكل (ب): يوضح منحنى لنتائج قياس نشاط بروتين مضاد التربسين في وجود مادة بيروكسيد الهيدروجين حيث نلاحظ (0– 50 $mmol.dm^{-3}$ من بيروكسيد الهيدروجين) تتزايد نسبة تثبيط بروتين مضاد التربسين من 0 إلى % 80.

الاستنتاج: بيروكسيد الهيدروجين يثبط البروتين مضاد التربسين.

الفرضيات المقترحة حول العلاقة بين تناول السجائر والاصابة بمرض الانسداد الرئوي:

ف1: يسبب التدخين خلل على مستوى البروتين مضاد التربسين

ف2: يسبب التدخين تنشيط إنزيم الايلاستاز

الجزء الثاني

1. استغلال اشكال الوثيقة(02):

الشكل (أ): يمثل نموذج يعرض البنية الفراغية لبروتين مضاد التربسين مع تكبير لأحد الأجزاء المهمة من هذا البروتين حسث نلاحظ أن هذا البروتين مكون من سلسلة بيبتيدية بها عدة بنيات ثانوية ورقية وحلزونية بينها نقاط انعطاف كما يتميز بوجود حلقة R تتكون من الأحماض الأمينية Ser159، Met358، Met358 وGly349 .

الاستنتاج: يتميز البروتين مضاد التربسين ببنية فراغية ثالثية تتميز بحلقة R بها أحماض أمينية محددة

الشكل (ب): يمثل جدول لنتائج تجريبية أجريت على بروتين مضاد التربسين. حيث نلاحظ في وجود الحلقة R في البروتين مضاد التربسين يتشكل المعقد "إيلاستاز–بروتين مضاد التربسين" **أما** في غياب الحلقة R في البروتين مضاد التربسين فلا يتشكل المعقد "إيلاستاز–بروتين مضاد التربسين"

الاستنتاج: الحلقة R **ضرورية** لتشكل المعقد "إيلاستاز–بروتين مضاد التربسين"

استغلال أشكال الوثيقة(03):

الشكل "أ": تمثيل نماذج للبنية الفراغية لإنزيم الإيلاستاز والحلقة R للبروتين مضاد التربسين في **حالة غياب** مادة بيروكسيد الهيدروجين حيث نلاحظ:

البروتين مضاد التربسين ذو بنية ملتفة بها عدة بنيات حزونية وورقية بينها نقاط إنعطاف ويتميز بوجود حلقة R تحتوي الأحماض الأمينية Ser159، Met358، Met351 و Gly349 .

الاستنتاج: البروتين مضاد التربسين يتميز بوجود حلقة R

www.ency-education.com

الشكل "ب": جدول لنتائج تجريبية أجريت على بروتين مضاد التربسين حيث نلاحظ:

- في وجود الحلقة R في البروتين مضاد التربسين يتشكل المعقد "إيلاستاز-بروتين مضاد التربسين"
- **أما** في غياب الحلقة R في البروتين مضاد التربسين فلا يتشكل المعقد "إيلاستاز-بروتين مضاد التربسين"

الاستنتاج: الحلقة R للبروتين مضاد التربسين ضرورية تشكل المعقد "إيلاستاز-بروتين مضاد التربسين"

استغلال أشكال الوثيقة(03):

الشكل(أ): تمثيل نماذج للبنية الفراغية لإنزيم الإيلاستاز والحلقة R للبروتين مضاد التربسين في **حالة غياب** مادة بيروكسيد الهيدروجين حيث:

تكون المسافة بين الأحماض الأمينية الوسطية Met358، Met351 للحلقة R من البروتين مضاد التربسين متقاربة بينها مسافة 3A° وهذا يسمح لجذور الأحماض الأمينية الطرفة Ser159 و Gly349 للحلقة R بتشكيل روابط هيدروجينية مع ذرتين أكسجين على جانبي الموقع الفعال للإنزيم إيلاستاز

الاستنتاج: البروتين مضاد التربسين يثبط الايلاستاز عن طريق حجب الموقع الفعال له

الشكل(ب): تمثيل نماذج للبنية الفراغية لإنزيم الإيلاستاز والحلقة R للبروتين مضاد التربسين في **حالة وجود** مادة بيروكسيد الهيدروجين حيث نلاحظ:

أن مادة بيروكسيد الهيدروجين تؤدي إلى أكسدة الأحماض الأمينية الوسطية Met358، Met351 للحلقة R من البروتين مضاد التربسين فتتباعد وتصبح بينها مسافة 9A° وهذا يؤدي كذلك إلى تباعد الأحماض الأمينية الطرفة Ser159 و Gly349 للحلقة R فلا ترتبط بجانبي الموقع الفعال للإنزيم إيلاستاز فلا يُثَبَّط

الاستنتاج: مادة بيروكسيد الهيدروجين تفقد البروتين مضاد التربسين قدرته على تثبيط الإيلاستاز.

شرح العلاقة بين تناول السجائر والإصابة بمرض الانسداد الرئوي المزمن.

مما سبق وجدنا أن البروتين مضاد التريبسين يملك حلقة R وظيفية بها أحماض أمينية محددة **تسمح لها** بالارتباط بإنزيم الإيلاستاز فتحجب موقعه الفعال وبهذا لا يفكك بروتين الايلاسين للخلايا الرئوية

أما عند التدخين الذي يحتوى على مادة بيروكسيد الهيدروجين فإن هذا الأخير يؤدي إلى تغير على مستوى الحلقة R للبروتين مضاد التربسين **مما يعيق** إرتباطه بإنزيم الإيلاستاز فيبقى نشطا وبذلك يفكك الايلاستين المكون لجدران الخلايا الرئوية مسببا الانسداد الرئوية

ومنه الفرضية الأولى التي تنص على أن التدخيل يؤدي إلى خلل على مستوى البروتين مضاد الايلاستين صحيحة

الجزء الثالث:

المقدمة : تحتوي على مشكل

العرض: تحتوي على فكرتين

أهمية استقرار البنية الفراغية (إظهار العلاقة بين البنية ووظيفة البروتين)

تأثير بعض المواد الكيميائية مثل بيروكسيد الهيدروجين (تأثير المثبطات على الوظيفة بتأثيرها على البنية)

الخاتمة: ملخصة للعلاقة بين بنية البروتي ووظيفته

www.ency-education.com