ثانوية : الرائد فراج * بشار*

المستوى : 3 ع ت

اختبار الفصل الأول في مادة علوم الطبيعة والحياة

"موسم الدراسي : 2024/2023 .

مدة : 4 ساعة

التمرين الأول (05 ن):

الفطريات كائنات حقيقية النواة تسبب بعضها تعفنات عند إصابتها لأنسجة مختلفة من جسم الإنسان، غير أن هذا الأخير تمكن من مكافحتها باستعمال أدوية تعرقل نموها وتكاثرها وذلك بالتأثير على إحدى مراحل التعبير المورثي لديها .

ينتمي دواء (kerydin) إلى عائلة مضادات الفطريات (Antifongiques) ويمتاز بمفعوله الفعال ضد نمو وتكاثر فطريات الأظافر شريطة استعماله موضعيا (يطلى على الظفر المتعفن) وبشكل منتظم .

- يمثل الشكل (أ) في الوثيقة 01 رسم تخطيطي لمراحل تركيب البروتين عند الفطريات ، بينما يمثل الشكل (ب) رسومات تخطيطية لمراحل النشاط التحفيزي الذي يقوم به العنصر 6 في الوثيقة 1 غير مرتبة ، ومقر تأثير دواء (Kerydin) .

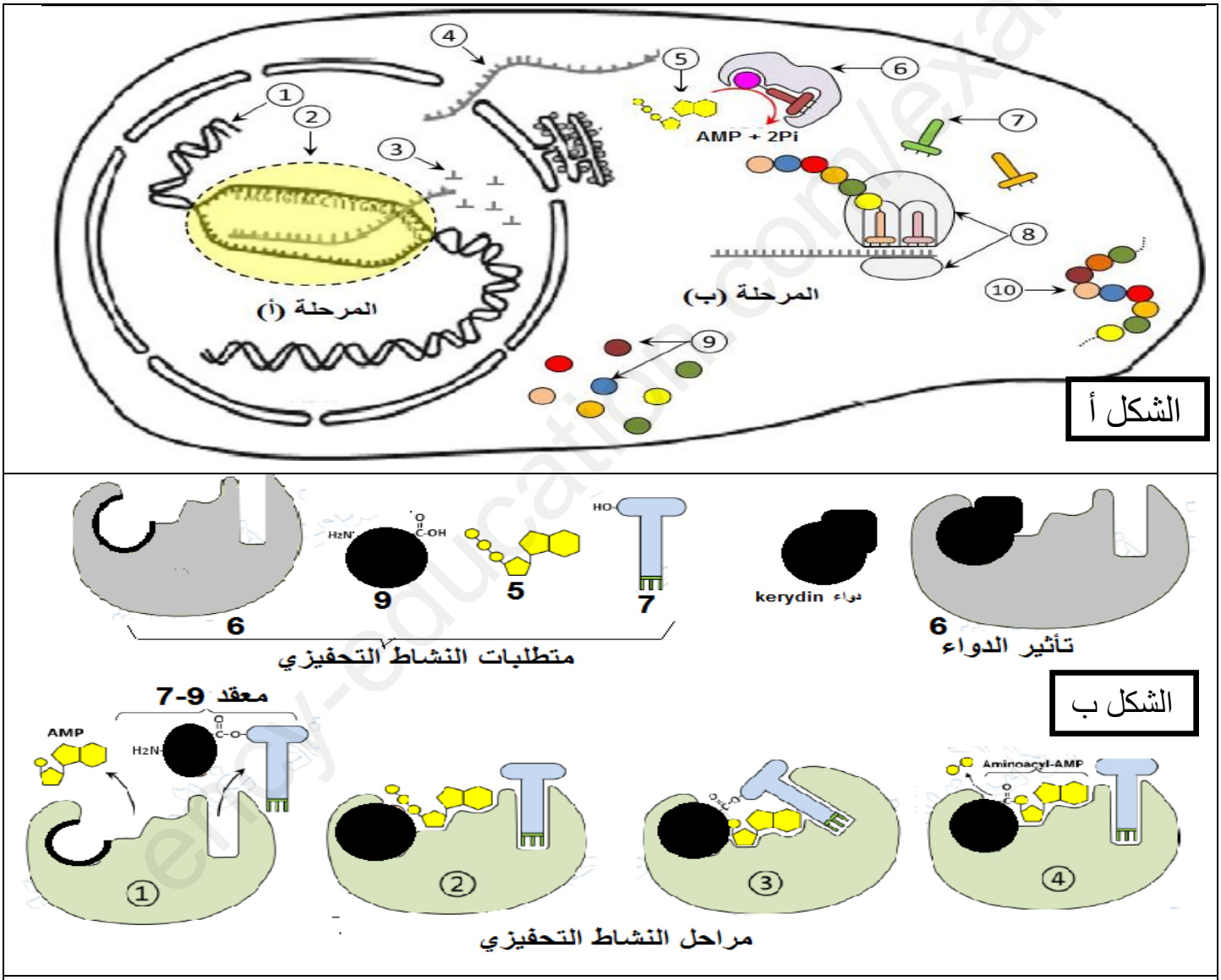

الوثيقة 01

1- **تعرف** على البيانات في الوثيقة 01 من 1إلى 10 والمرحلتين AوB ، ثم **تعرف** على النشاط التحفيزي للعنصر 6 و**صف** مراحله باختصار **بعد ترتيب** الأشكال حسب تسلسلها الزمني .

2- باعتماد الوثيقة 01 ومكتسباتك القبلية ، **اشرح** في نص علمي كيف يوقف هذا الدواء تكاثر فطريات الأظافر **مبرزا** ضرورة الاستعمال الموضعي له .

www.ency-education.com

التمرين الثاني (07ن) :

للبروتينات وظائف متعددة عالية التخصص في العضوية ،تحدد تبعا لبنيتها الفراغية حيث ينعكس أي خلل في هذه البنية على العضوية بظهور اختلال وظيفي في الجسم .

- لإثبات العلاقة بين بنية البروتين (على المستوى الجزيئي والخلوي) وظهور الإختلالات العضوية نقدم لك الدراسة التالية :

الجزء الأول: الدريبانوسيتوز أو مرض فقر الدم المنجلي هو أكثر أمرا الكريات الدموية الحمراء انتشارا حيث يصيب الملايين من الأفراد في العالم خاصة سكان إفريقيا الوسطى والسكان السود في أمريكا ، يتميز بآلام حادة على مستوى المفاصل وصعوبة في التنفس نتيجة عدم وصول O2إلى الأنسجة .

أصبح من الممكن الكشف المبكر عنه من خلال تحليل خضاب الدم (الهيموغلوبين) بتقنية الهجرة الكهربائية ونتائجها مبينة في الشكل أ من الوثيقة 01 حيث Hbs للشخص المصاب و Hba للشخص العادي ، أما الشكل ب فيمثل التتابع النكليوتيدي للمورثة Hbaو Hbs وتتابع الأحماض الأمينية في السلاسل بيتا لكلا البروتينين مأخوذة ببرنامج أناجين ، والشكل ج يمثل الصيغة المفصلة لجذور بعض الأحماض الأمينية من السلسلة بيتا في الهيموغلوبين .

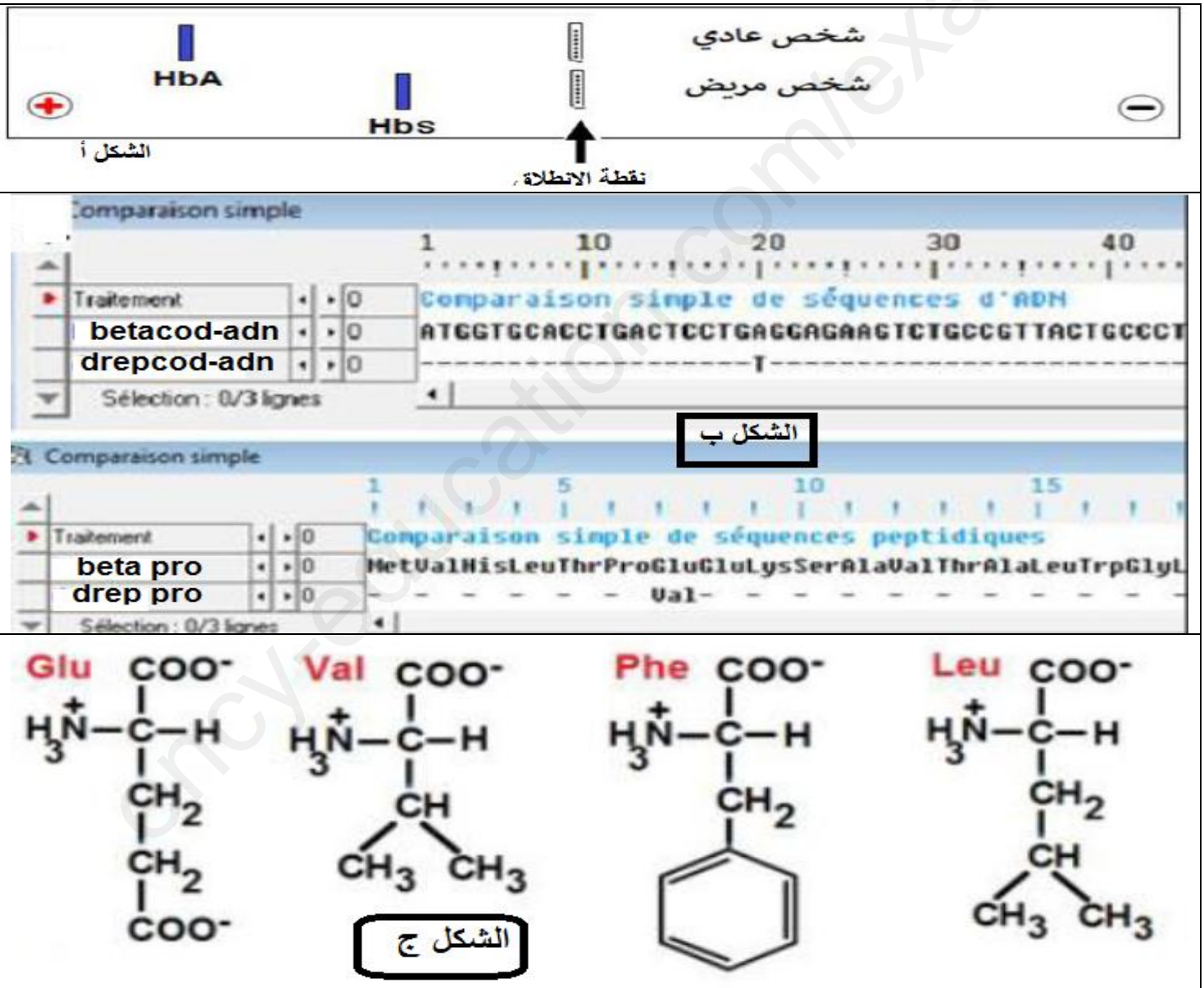

الوثيقة 01

1- **حلل** نتائج الهجرة الكهربائية .

2- باستغلال الشكلين ب وج ، **فسر** سبب اختلاف الهجرة الكهربائية .

www.ency-education.com

الجزء الثاني :

لفهم العلاقة بين تغير البنية الجزيئية لبروتين الهيموغلوبين و الإختلالات العضوية الظاهرة على مرضى فقر الدم المنجلي ندرس سلوك بروتين الهيموغلوبين داخل الكريات الدموية الحمراء لشخص سليم وآخر مصاب بفقر الدم المنجلي في غياب O2 النتائج موضحة في الرسومات التخطيطية في الشكل 01 من الوثيقة 02 أما الشكل 02 يمثل تكبيرا للجزء المؤطر في الشكل 01 .

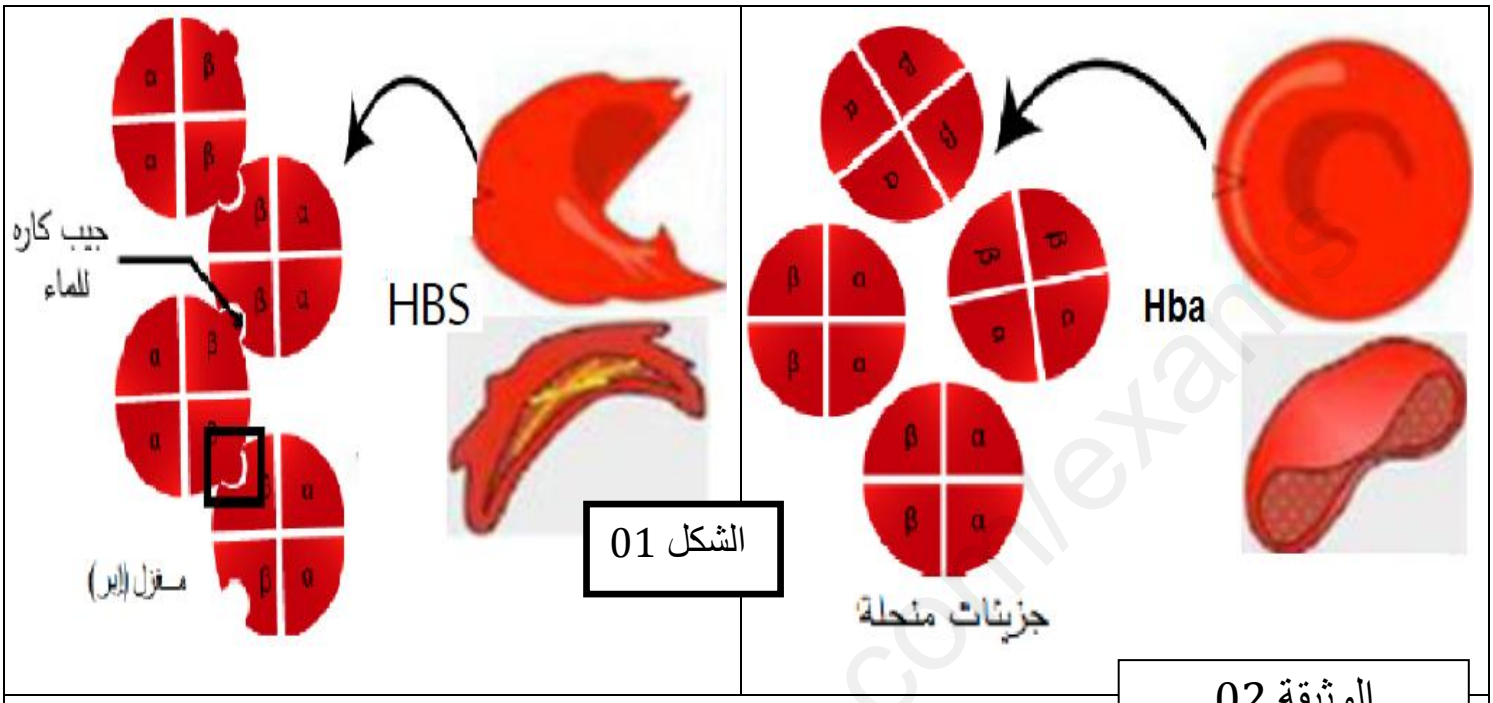

الشكل 01

الوثيقة 02

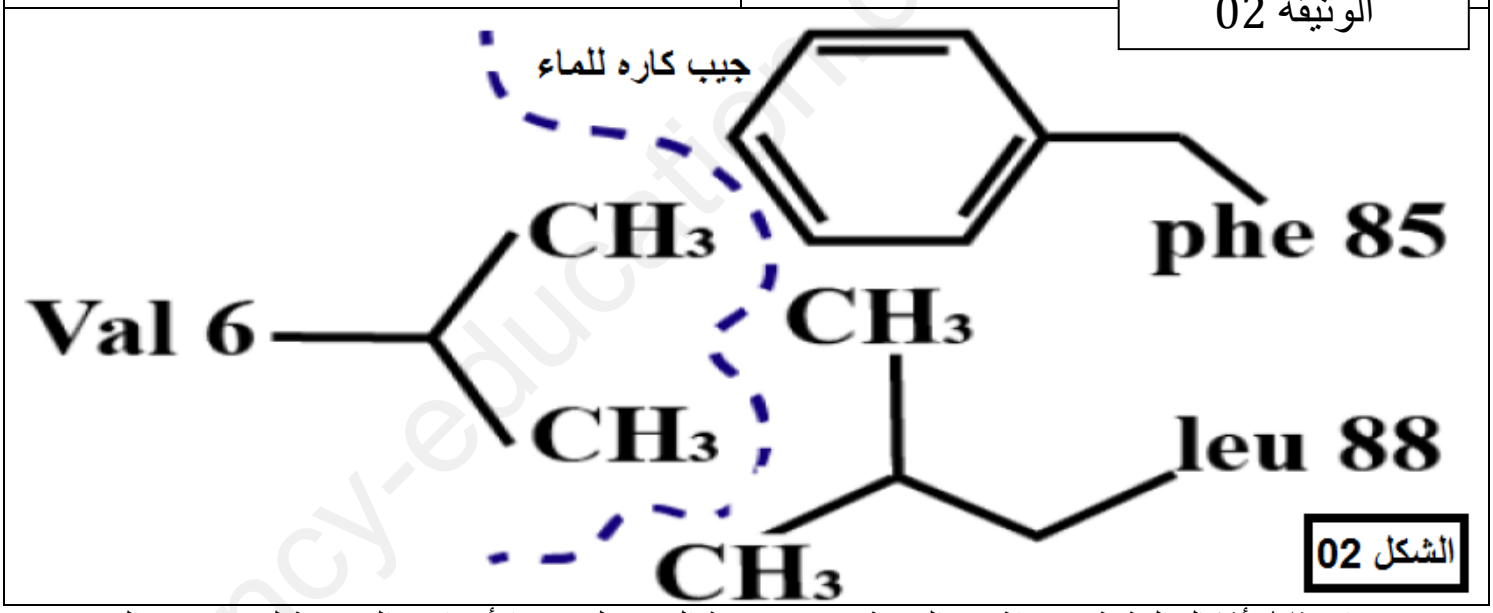

الشكل 02

- ب**استغلال** أشكال الوثيقة 02: **اشرح** العلاقة بين تغير بنية الهيموغلوبين والأعراض العضوية لمرض فقر الدم المنجلي.

التمرين الثالث(08ن) :

تعتبر الخلية مصنعا كيميائيا مصغرا تحدث فيه في الثانية الواحدة آلاف التفاعلات البيوكيميائية التي تحفزها إنزيمات نوعية ،نشاطها مرتبط ببنيتها الفراغية ، وأي خلل يمسها ينعكس سلبا على العضوية بظهور اختلالات ومشاكل صحية .

مرض تخزين الغليكوجين من النوع الأول (GSD I) أو Maladie de von Gierke يؤدي إلى عدم قدرة الكبد على تفكيك الغليكوجين المخزن بشكل صحيح ما يؤدي إلى انخفاض حاد في نسبة السكر في الدم وبمرور الوقت يتراكم الغليكوجين في الكبد والكلى مايتسبب في تضخمهما .

www.ency-education.com

الجزء الأول : يتم تحويل الغليكوجين إلى غلوكوز وفق سلسلة من التفاعلات الإنزيمية على مستوى الخلايا الكبدية .

الوثيقة 01 تبين آلية تحويل الغليكوجين الكبدي إلى غلوكوز في الحالة الطبيعية (عند شخص سليم) .

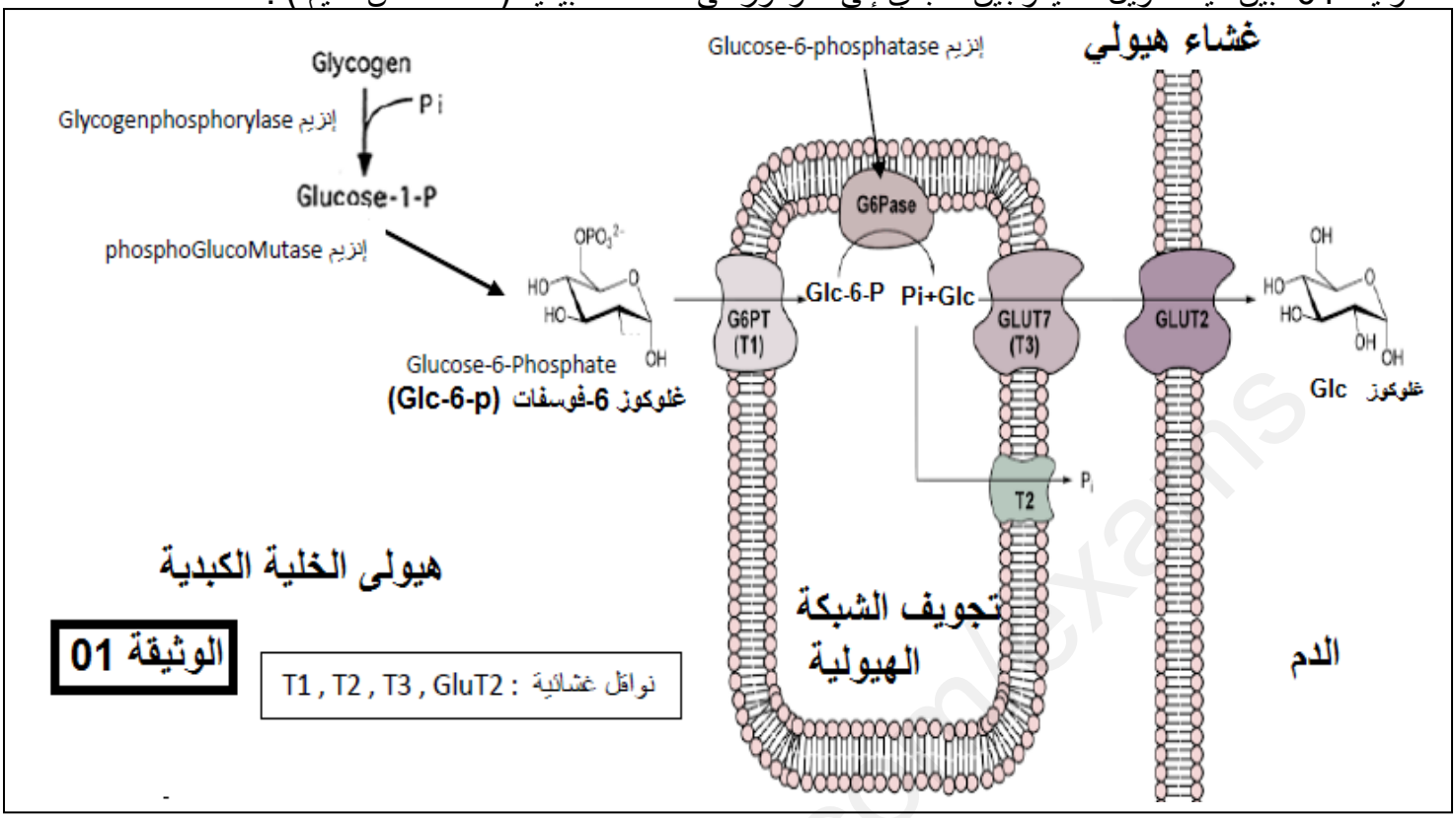

1- باستغلال الوثيقة 01 ، **اقترح** ثلاث فرضيات تفسر بها سبب الإصابة بمرض GSDI (مرض فون –جيريك).

الجزء الثاني :

بغية التحقق من صحة إحدى الفرضيات المقترحة سابقا تقدم الدراسة التجريبية التالية :

- تمثل الوثيقة 02 رسم تخطيطي يوضح تحلل الجليكوجين عند فأر مصاب ب GSDI .
- يوضح الشكل 01 من الوثيقة 03 رسم تخطيطي لتوضع إنزيم غلوكوز -6 –فوسفاتاز في غشاء الشبكة الهيولية حيث الأحماض الأمينية المبينة باللون الأسود هي الأحماض الأمينية الناتجة عن طفرات مست مورثة G6Pase المسؤولة عن التعبير المورثي لهذا الأنزيم بينما تم الإشارة إلى الأحماض الأمينية المميزة للموقع الفعال بدوائر كبيرة .
- يمثل الشكل 02 من الوثيقة 03 نشاط التحفيز الإنزيمي لإنزيم غلوكوز -6- فوسفاتاز .

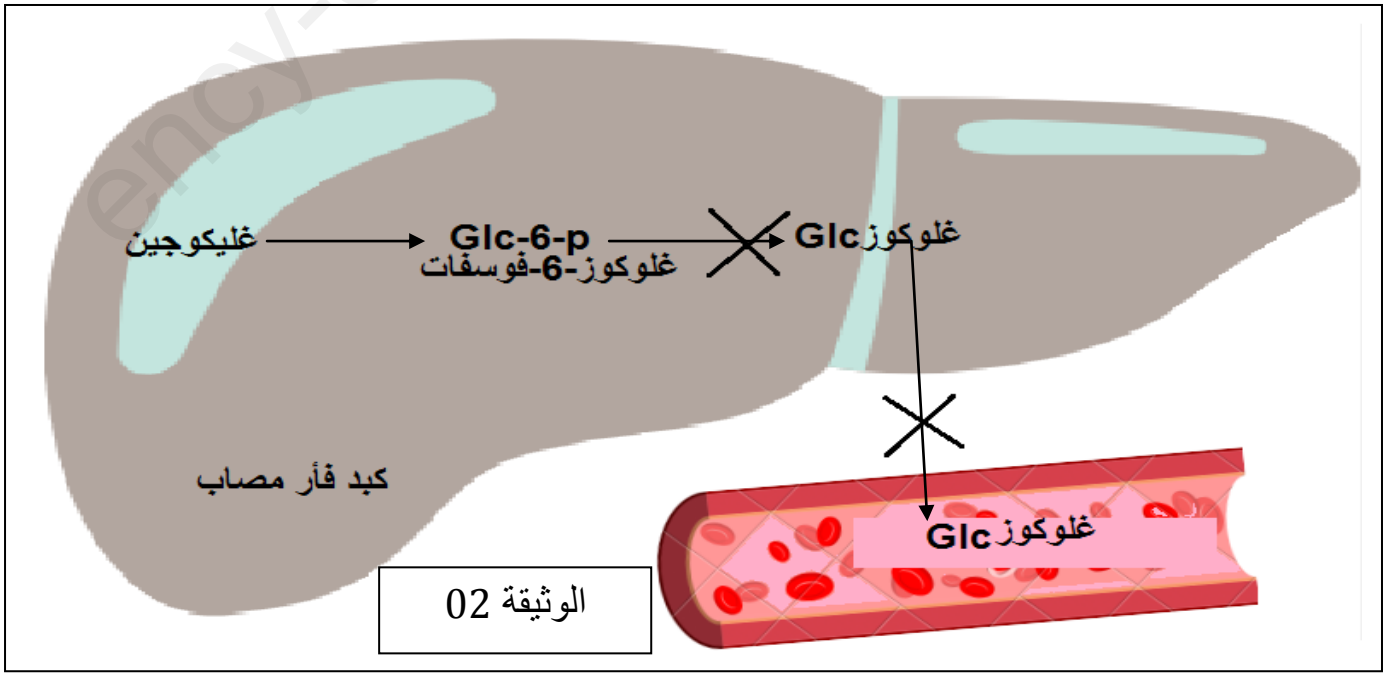

www.ency-education.com

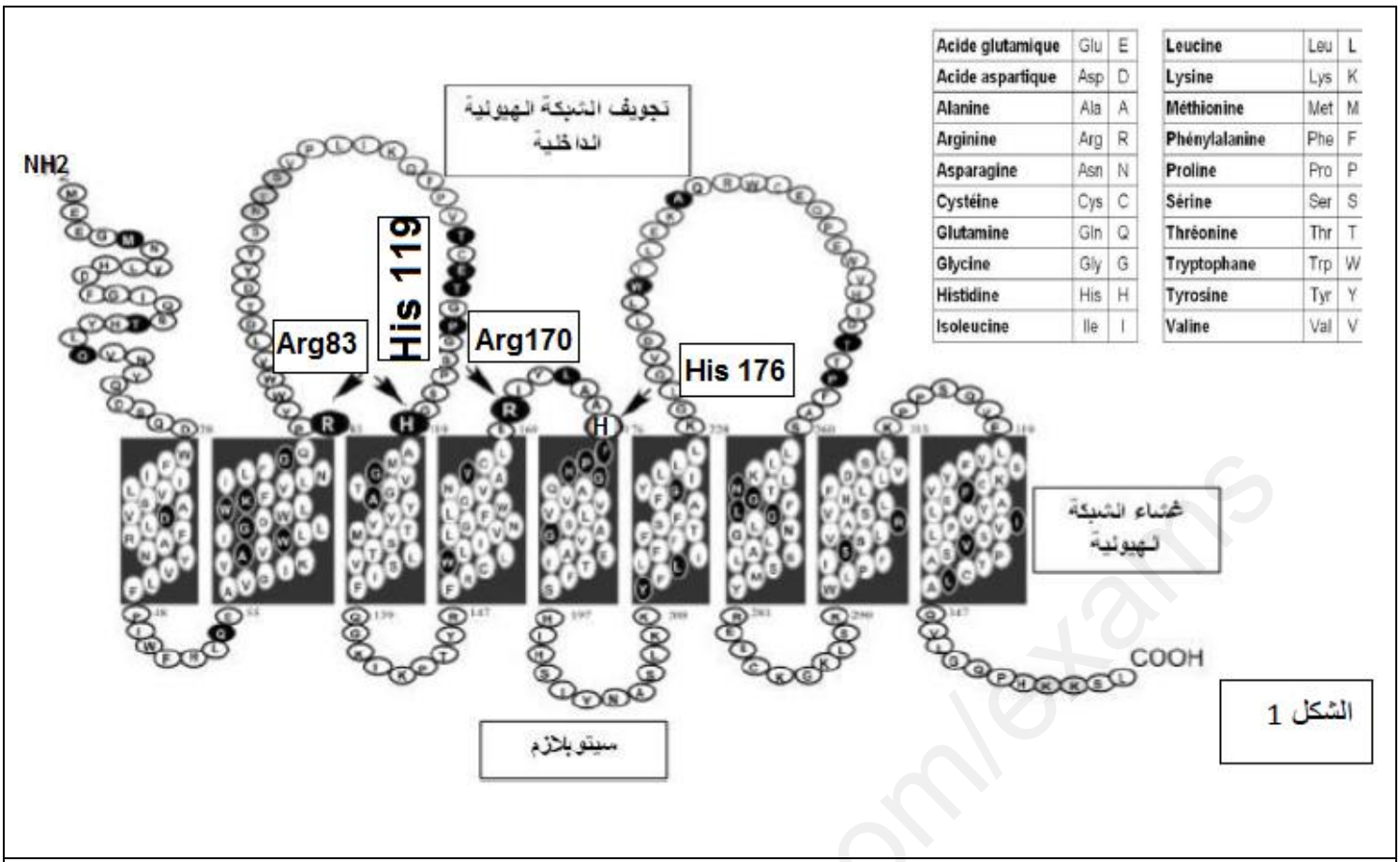

Acide glutamique	Glu	E	Leucine	Leu	L
Acide aspartique	Asp	D	Lysine	Lys	K
Alanine	Ala	A	Méthionine	Met	M
Arginine	Arg	R	Phénylalanine	Phe	F
Asparagine	Asn	N	Proline	Pro	P
Cystéine	Cys	C	Sérine	Ser	S
Glutamine	Gln	Q	Thréonine	Thr	T
Glycine	Gly	G	Tryptophane	Trp	W
Histidine	His	H	Tyrosine	Tyr	Y
Isoleucine	Ile	I	Valine	Val	V

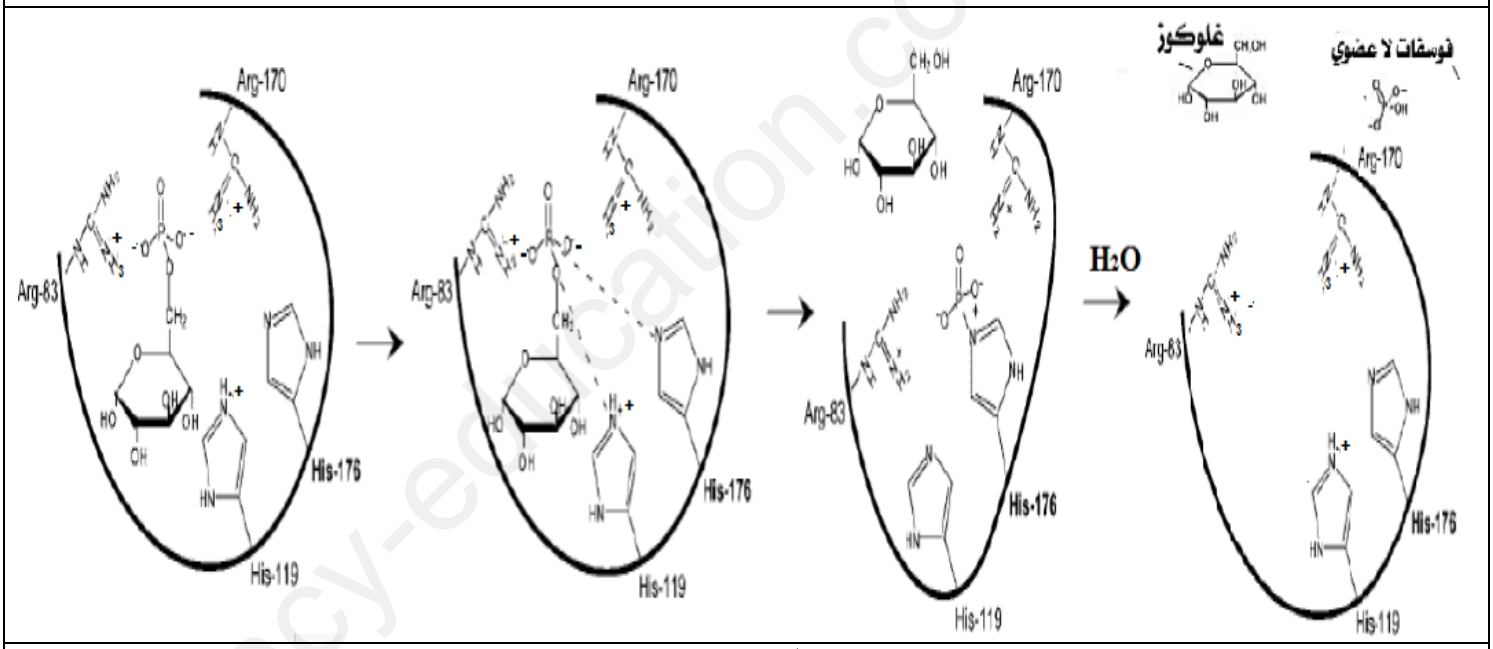

الوثيقة 03

1- انطلاقا من استغلالك للوثائق بين سبب الإصابة بمرض فون –جيريك وعلاقة ذلك بأعراض المرض مصادقا على صحة إحدى الفرضيات المقترحة .

2- اقترح حلولا علاجية للتخفيف من أعراض مرض فون – جيريك .

الجزء الثالث : باعتماد ماتوصلت إليه ومعلوماتك وضح في مخطط تحصيلي العلاقة السببية بين إنزيم غلوكوز -6- فوسفاتاز ومرض فون – جيريك .

انتهى الموضوع .

كل هذه التفاعلات هي جزء من حياتك اليومية دون أن تشعر ، عليك أن تحمد الله عليها وتعلم منها :

***أن تبليغك الصحيح للمعلومة يترجم ببنية منسقة لإجابتك ومنه أداءك الجيد والعلامة الكاملة .**

***مهما كانت العوامل التي تؤثر على تحفيزك ونشاطك ، كن كالإنزيم محفزا لذاتك ودقيقا في إنجاز مهامك .**

***لكل علة دواء مهما كان تعقيدها ، فقط ابحث وتعلم فانتكاسة اليوم هي سعادة الغد .**

مع تمنياتنا لكم بالتوفيق . إنها الخطوة الأولى في طريق النجاح

www.ency-education.com

التمرين الأول :

الكفاءة المستهدفة :

- الفطريات كائنات حقيقية النواة يمكن التأثير على إحدى مراحل التعبير المورثي لديها لإيقاف نموها .
- دواء **kerydin** يثبط نشاط إنزيم تنشيط الأحماض الأمينية مايمنع حدوث عملية الترجمة .
- يستخدم الدواء موضعيا لأنه يستهدف حقيقيات النواة فيمكن أن يؤثر على خلايا العضوية .

العنصر	الاجابة	العلامة الجزئية	الكلية
1البيانات	1-مورثة 2- معقد انزيمي ARN بوليميراز 3 – نكليوتيدات ريبية حرة 4- ARNm 5 –ATP 6 - إنزيم تنشيط الأحماض الأمينية 7- ARNt 8 – ريبوزوم وظيفي 9- أحماض أمينية حرة 10- متعدد بيبتيد المرحلة A: الإستنساخ المرحلة B: الترجمة	كل 3بيانات 0.25 4*0.25	1
المراحل باختصار وترتيبها	النشاط التحفيزي : تنشيط الأحماض الأمينية المرحلة 2: تثبيت كل مواد التفاعل (5،7،9) في الموقع الفعال للإنزيم .تشكل معقد إنزيم – مادالتفاعل المرحلة 4: بداية النشاط التحفيزي وانفصال 2Pi المرحلة 3: مواصلة النشاط التحفيزي وتشكل رابطة بين 7و9 . المرحلة 01 : نهاية النشاط التحفيزي بتشكل معقد حمض أميني- ARNt و AMP	0.25 4*0.25	01.25
2 النص العلمي	- يسبب تكاثر الفطريات تعفنات في الأنسجة المصابة مما يستدعي استعمال أدوية للقضاء عليها مثل kerydin الذي يقضي على فطريات الأظافر ، فكيف يعمل هذا الدواء على إبادتها ، ولماذا يجب استعماله موضعيا؟ يتطلب تكاثر الفطريات تركيبها لبروتينات خاصة ويتم ذلك خلال مراحل متتالية وهي الإستنساخ والترجمة التي تتطلب تنشيط الأحماض الأمينية . تعتبر آلية تنشيط الأحماض الأمينية خطوة مهمة جدا في عملية تركيب البروتين فهي بمثابة حلقة الوصل بين مرحلتي الإستنساخ والترجمة يتم خلالها ربط الحمض الأميني بARNt الموافق له بتدخل إنزيم خاص (Aminoacyle-ARNt synthetase) يحفز تشكل معقد حمض أميني – ARNt مايسمح للARNt بنقل الحمض الأميني المنشط إلى موقع الترجمة في الريبوزوم . يثبط دواء kerydin نشاط إنزيم تنشيط الأحماض الأمينية بتثبته في الموقع الخاص للحمض الأميني فيمنع ارتباط هذا الأخير بموقعه فلا تنشط الأحماض الأمينية أي عدم تشكل معقد حمض أميني- ARNt فلا يتم نقل الأحماض الأمينية إلى الريبوزومات فتتوقف عملية الترجمة ويتوقف تركيب البروتينات الخاصة بالفطريات المسببة للتعفن في الأظافر فيوقف نموها وتكاثرها . يجب استعمال هذا الدواء موضعيا لضمان تأثيره على النسيج المتعفن من جهة ومن جهة أخرى لأن استعماله عن طريق الفم أو الحقن يمكن ان يؤدي إلى توقيف عمليات تركيب البروتين في خلايا مختلفة من العضوية ويتسبب في مشاكل صحية . يمكن القضاء على الفطريات باستخدام أدوية موضعية تؤثر على احدى مراحل عملية تركيب البروتين لديها.	0.25 0.25 0.25 0.5 0.75 0.5 0.25	2.75

التمرين الثاني :

الكفاءة المستهدفة : –الأحماض الأمينية مركبات حمقلية .

–أي تغير على مستوى المورثة يترجم بتغير نوع أوعدد أو ترتيب الأحماض الأمينية الداخلة في تركيبه مايؤثر على سلوك البروتين .
مرض فقر الدم المنجلي ناتج عن طفرة استبدال **A**ب**T** في الثلاثية **07**أدى إلى تغير الحمض الأميني من **Glu**إلى **Val** وهو حمض أميني متعادل يقوم بتشكيل رابطة كارهة للماء مع **Leu** مايؤدي إلى تشكل إبر من جزيئات الهيموغلوبين الصلبة فيتغير شكل كريات د ح إلى المنجلي فتصبح غير قادرة على الحركة مايسبب انسداد الأوعية الدموية ونقص في إمداد الخلايا ب **O2** فيضيق التنفس.

العنصر	الإجابة	ع جزئية	ع كلية
التحليل	**تمثل الوثيقة 01 نتائج الهجرة الكهربائية لبروتين خضاب الدم (هيموغلوبين) لشخص سليم وشخص مصاب حيث نلاحظ:** يهاجر كل منHba و Hbs نحو القطب الموجب لكن Hba يهاجر أبعد من Hbs. ومنه نستنتج أن : كلا من HbaوHbs سلكا سلوك الحمض فاكتسبا شحنة سالبة ولكن Hba أكثر كهروسلبية من Hbs.	0.25 0.5 0.25	01
التفسير	• **استغلال الشكل ب** : يظهر التتابع النكليوتيدي لكلا السلسلتين بيتا لهيموغلوبين الشخص السليم والمصاب المأخوذ من برنامج اناجين أنه حدثت طفرة استبدال في القاعدة رقم 20 حيث استبدلت القاعدة A في Hbaب T في Hbsمما أدى إلى تغير الثلاثية 07من GAG إلىGTG ما سبب تغير الحمض الأميني رقم 07 كما يظهر في تتابع الأحماض الأمينية في نفس الوثيقة من Gluإلى Val. • **استغلال الشكل ج** : يتبين من خلا الشكل ان لكل حمض أميني جذر مميز حيث : Glu يحتوي في جذره على وظيفة كربوكسيلية قابلة للتأين فهو حمض أميني حامضي Val لايحتوي جذره على وظيفة كربوكسيلية أو أمينية قابلة للتأين فهو حمض أميي متعادل جذ ره غير قابل للتأين . • وعليه يمكن **تفسير هجرة Hbaأبعد من Hbs إلى** أنه على مستوى السلسلة بيتا للهيموغلوبين العادي يوجد الحمض الأميني Glu الحامضي الذي يكون جذره قابلا للتأين فيكتسب شحنة سالبة أكبر تجعله يهاجر أبعد نحو القطب + ، على عكس Hbs الذي يحتوي على الحمض الأميني المتعادل Val والذي جذره غير قابل للتأين بدل Glu فيكون أقل كهرو سلبية من الهيموغلوبين العادي مايفسر هجرته الأقصر نحو القطب +.	3*0.25 2*0.25 3*0.25	0.75 0.5 0.75
شرح العلاقة بين تغير بنية الهيموغلوبين ولأعراض العضوية لمرض فقر الدم المنجلي	➢ **استغلال الشكل أ :تمثل** الوثيقة رسومات تخطيطية لدراسة سلوك بروتين الهيموغلوبين داخل كريات الدم لشخص سليم وشخص مصاب حيث نلاحظ : - **يتساوى** عدد جزيئات الهيموغلوبين عند الشخص السليم والشخص المصاب ، كما أن كل جزيئة تحتوي على سلسلتين ألفا وسلسلتين بيتا . - **تكون الجزيئات منحلة** عند الشخص السليم ولا تحتوي على جيوب كارهة للماء مايعطي لكرية الدم الحمراء الشكل القرصي . - **تكون الجزيئات على شكل مغازل(إبر**)عند الشخص المصاب مرتبطة ببعضها البعض لوجود جيوب كارهة للماء مايعطي لكرية الدم الحمراء الشكل المنجلي . **ومنه نستنتج أن** : تغير شكل كريات الدم الحمراء عند الشخص المصاب بفقر الدم المنجلي يعود لارتباط جزيئات الهيموغلوبين بواسطة جذور كارهة للماء ➢ **استغلال الشكل ب** : يمثل الشكل رسم تخطيطي مكبر للجزء المؤطر في الشكل أ حيث نلاحظ : عل مستوى الجيب الكاره للماء الجذر الألكيلي لل Val6 في السلسلة بيتا لجزيئة الهيموغلوبين الأولى يتقابل مع جذور الحمضين الأمينيين Leu88و في Phe85 في السلسلة بيتا لجزيئة الهيموغلوبين الأخرى مشكلا رابطة كارهة للماء **ومنه نستنتج أن** : سبب ارتباط جزيئات الهيموغلوبين في شكل مغزلي يعود إلى تشكل روابط كارهة للماء .	0.25 0.25 0.25 0.25 0.5 0.25	01 0.75

	➢ وعليه يمكن القول أن تغير بنية الهيموغلوبين هي المسؤولة عن ظهور الأعراض العضوية لمرض فقر الدم المنجلي بحيث : **عند الشخص السليم** : **غياب الجيوب الكارهة للماء** يجعل جزيئات الهيموغلوبين **منحلة** داخل كرية الدم الحمراء فيكون **لها شكل قرص** يسمح لها بالإنسياب والحركة داخل الأوعية والشعيرات الدموية **فتزود** العضوية بالO2 اللازم لعملية التنفس والنشاط الأيضي . **عند الشخص المصاب** :**تظهر جيوب كارهة للماء تتقارب** على مستواها جزيئات بيتا للهيموغلوبين الطافر بسبب وجود **جذور قابلة لتشكيل روابط كارهة للماء في وجود Val** ، مايجعل جزيئات الهيموغلوبين **متراصة في شكل إبر** تعطي للكرية الحمراء الدموية **الشكل المنجلي** والتي تكون **قليلة المرونة** في الشعيرات الدموية وسهلة الإتلاف مؤدية **لعدم وصول O2** إلى الأنسجة مايتسبب في ضيق التنفس وآلام حادة في المفاصل	0.25 4*0.25 4*0.25	1 1

التمرين 3 الثالث:

الكفاءة المستهدفة : - النشاط التحفيزي للإنزيمات متعلق ببنيتها الفراغية .

- **مرض فون جيريك راجع إلى حدوث طفرة استبدال في الأحماض الأمينية في الموقع الفعال لإنزيم غلوكوز 6-فوسفاتاز مايوقف تحويل الغلوموز 6-فوسفا ت إلى غلوكوز فلا يحرر في الدم مايؤدي إلى خفض السكر في الدم بينما يتراكم الغليكوجين مايؤدي إلى تضخم الكبد .**

العنصر	الإجابة	ع ج	ع ك
اقتراح فرضيات	استغلال الوثيقة 01 : تمثل الوثيقة رسم تخطيطي لآلية تحويل الغليكوجين الكبدي إلى غلوكو في خلايا كبد شخص سليم حيث نلاحظ : • في هيولى الخلية الكبدية : يتحلل الغليكوجين الكبدي إلى G-1-P بواسطة إنزيم **Glycogenephosphoryla** ثم بواسطة إنزيم phosphoGlucoMutase يتحول G-1-Pإلى G-6-P الذي ينفذ إلى تجويف الشبكة الهيولية عبر الناقل T1 • في تجويف الشبكة الهيولية : يتدخل إنزيم G-6-Paseالمتواجد في غشاء الشبكة الهيولية فيتم نزع الفوسفور pi الذي ينفذ عبر الناقل T2 من الغلوكوز -6- فوسفات فيتحرر الغلوكوز الذي ينفذ إلى الهيولى عبر الناقل T3 • على مستوى الغشاء الهيولي : يسمح الناقل GluT2 بتحرير الغلوكوز في الدم ومنه نستنتج : يتحلل الغليكوجين الكبدي إلى غلوكوز بتدخل 3 إنزيمات (يذكرها) ✓ وعليه تكون الفرضيات حول سبب مرض فون جيريك كالتالي : 1- توقف نشاط إنزيم Glycogenephosphorylase الذي يحلل الغليكوجين إلى G-1-P . 2- توقف نشاط إنزيم PhosphoGlucoMutase الذي يحول G-1-Pإلى G-6-P. 3- توقف نشاط إنزيم Glucose-6-phosphatase الذي يحول G-6-Pإلى غلوكوز و Pi.	0.25 0.25 0.25 0.25 0.25 0.25 *0.25 3	1.25 0.75
سبب الإصابة بمرض فون جيريك	استغلال الوثيقة 02 :يمثل رسم تخطيطي للتفاعل الذي يحدث في خلايا كبد فأر مصاب ب GSDI حيث نلاحظ: على مستوى خلايا كبد الفأر يتحلل الغليكوجين إلى G-6-P لكن هذا الأخير لايتحول إلى غلوكوز وبالتالي لايحرر الغلوكوز في الدم (الوسط الداخلي) ومنه نستنتج أن : ينتج مرض GSDI عن خلل في تحويل G-6-P إلى غلوكوز والمسؤول عنه هو إنزيم G-6-Pase استغلال الوثيقة 03 : الشكل 01: يتبينمن الرسم التخطيطي لإنزيم G-6-Pase المتواجد في غشاء الشبكة الهيولية في الخلية الكبدية أن : هذا الإنزيم يتكون من سلسلة بيبتيدية واحدة عدد الأحماض الأمينية فيها 357 فهو ذو بنية ثالثية . تحدث على مستوى إنزيم غلوكوز -6-فوسفاتاز عدة طفرات يمكن تقسيمها حسب موقعها إلى : طفرات تمس الأحماض الأمينية مكونة للموقع الفعال للإنزيم حيث يمكن أن تمس Arg83.Arg170.His119 بينما	0.25 0.25 0.25 0.5	0.5 1

www.ency-education.com

		لاتحدث طفرة على مستوى His176.	
	0.25	طفرات لاتمس الأحماض الأمينية المشكلة للموقع الفعال وهي عديدة مثل Met5.Thr16.Pro257.....	
		الشكل 02 : يمثل النشاط التحفيزي لإنزيم G-6-Pase حيث نلاحظ:	
	0.5	عند اقتراب مادة التفاعل G-6-P من الموقع الفعال للإنزيم G-6-Pase فيتم تثبيتها بتشكل روابط شاردية (انتقالية) بين الوظيفة القاعدية المتأينة لل Arg170 و Arg83 والوظيفة المتأينة (الحمضية) للPi المرتبط بالغلوكوز .	
	0.5	ثم تتشكل روابط هيدروجينية (انتقالية) بين الوظيفة الحمضية للPi المرتبط بالغلوكوز وجذور الحمضين الأمينيين His176. His119 فيحدث تفاعل فتحرر جزيئة الغلوكوز	
	0.25	ثم بتدخل جزيئة ماء H2O يكتسب His119 بروتونا+H ويستعيد صيغته الوظيفية ، فتتحرر جزيئة -OH ترتبط مع Pi فيتحرر.	
1.5	0.25	ومنه نستنتج أن الحمضين Arg83; Arg170 يمثلان موقع التثبيت بينما الحمضين His176. His119 يمثلان موقع التحفيز	
		وعليه يمكن توضيح سبب المرض كالتالي :	
	0.25	عند الشخص المصاب يمكن حدوث طفرات على مستوى Arg83.Arg170 ينتج عنه عدم قدرة ارتباط الركيزة (او ارتباط ضعيف) وذلك بعدم تشكل روابط انتقالية مايمنع تشكل معقد إنزيم-مادة التفاعل وبالتالي عدم حدوث التفاعل الإنزيمي .	
0.5	0.25	حدوث طفرة على مستوى His 119 يمنع تشكل روابط هيدروجينية بين موقع التحفيز والركيزة وبالتالي عدم حدوث التفاعل الأنزيمي .	
0.75	0.5	إن حدوث هذه الطفرات يوقف النشاط التحفيزي لإنزيم G-6-Pase وبالتالي لايتحلل G-6-P إلى غلوكوز وPi ، فلا يتم تحرير الغلوكوز إلى الدم وهذا مايتسبب في خفض نسبة السكر في الدم ، كما يتراكم G-6-P مايسبب تضخما في الكبد والكلى .	علاقة المرض بالأعراض
	0.25	وهذا مايؤكد صحة الفرضية 03	
0.5	0.5	2- حلول علاجية : - تناول وجبات غذائية غنية بالسكريات لتجنب انخفاض نسبة السكر في الدم (حمية غذائية) -تناول أدوية تحفز تحلل الغليكوجين .	
01.25	0.25 * 4	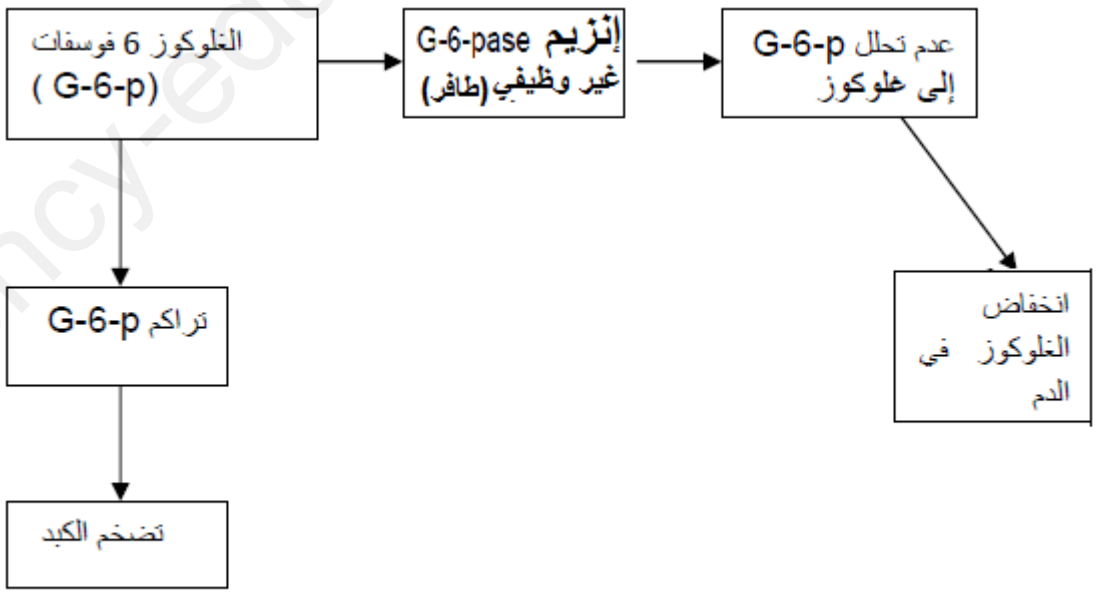	
	عنوان 0.25	مخطط يوضح علاقة سببية بين G-6-pase و مرض فون - جيريك	

www.ency-education.com